Estratégia Concursos

5º SIMULADO

PM PR

PÓS - EDITAL

Nome: _____

INFORMAÇÕES SOBRE O SIMULADO EXCLUSIVO

1 – Este simulado conta com questões focadas no concurso da PM-PR;

*2 – A prova contém **60 itens** que abordam conhecimentos cobrados no edital do concurso;*

3 – As questões são inéditas e foram elaboradas pelos nossos professores com base no perfil da banca organizadora UFPR, com questões de múltipla escolha A, B, C, D, E.

4 – Este PDF foi enviado por e-mail, disponibilizado na área do aluno e em um artigo publicado no blog do Estratégia Concursos;

*5 – Os participantes têm das **8h30 às 13h** para responder às questões e preencher o Gabarito Eletrônico;*

6 – O link para preencher o formulário com seu gabarito está localizado na primeira página deste PDF;

7 – Esse simulado é uma auto avaliação! Você mesmo (a) vai corrigir, a partir do padrão de respostas disponível na área do aluno.

PREENCHA SEU GABARITO NO LINK - http://bit.ly/Simulado-PM-PR-24-10-20

01 – Ⓐ Ⓑ Ⓒ Ⓓ Ⓔ	21 – Ⓐ Ⓑ Ⓒ Ⓓ Ⓔ	41 – Ⓐ Ⓑ Ⓒ Ⓓ Ⓔ
02 – Ⓐ Ⓑ Ⓒ Ⓓ Ⓔ	22 – Ⓐ Ⓑ Ⓒ Ⓓ Ⓔ	42 – Ⓐ Ⓑ Ⓒ Ⓓ Ⓔ
03 – Ⓐ Ⓑ Ⓒ Ⓓ Ⓔ	23 – Ⓐ Ⓑ Ⓒ Ⓓ Ⓔ	43 – Ⓐ Ⓑ Ⓒ Ⓓ Ⓔ
04 – Ⓐ Ⓑ Ⓒ Ⓓ Ⓔ	24 – Ⓐ Ⓑ Ⓒ Ⓓ Ⓔ	44 – Ⓐ Ⓑ Ⓒ Ⓓ Ⓔ
05 – Ⓐ Ⓑ Ⓒ Ⓓ Ⓔ	25 – Ⓐ Ⓑ Ⓒ Ⓓ Ⓔ	45 – Ⓐ Ⓑ Ⓒ Ⓓ Ⓔ
06 – Ⓐ Ⓑ Ⓒ Ⓓ Ⓔ	26 – Ⓐ Ⓑ Ⓒ Ⓓ Ⓔ	46 – Ⓐ Ⓑ Ⓒ Ⓓ Ⓔ
07 – Ⓐ Ⓑ Ⓒ Ⓓ Ⓔ	27 – Ⓐ Ⓑ Ⓒ Ⓓ Ⓔ	47 – Ⓐ Ⓑ Ⓒ Ⓓ Ⓔ
08 – Ⓐ Ⓑ Ⓒ Ⓓ Ⓔ	28 – Ⓐ Ⓑ Ⓒ Ⓓ Ⓔ	48 – Ⓐ Ⓑ Ⓒ Ⓓ Ⓔ
09 – Ⓐ Ⓑ Ⓒ Ⓓ Ⓔ	29 – Ⓐ Ⓑ Ⓒ Ⓓ Ⓔ	49 – Ⓐ Ⓑ Ⓒ Ⓓ Ⓔ
10 – Ⓐ Ⓑ Ⓒ Ⓓ Ⓔ	30 – Ⓐ Ⓑ Ⓒ Ⓓ Ⓔ	50 – Ⓐ Ⓑ Ⓒ Ⓓ Ⓔ
11 – Ⓐ Ⓑ Ⓒ Ⓓ Ⓔ	31 – Ⓐ Ⓑ Ⓒ Ⓓ Ⓔ	51 – Ⓐ Ⓑ Ⓒ Ⓓ Ⓔ
12 – Ⓐ Ⓑ Ⓒ Ⓓ Ⓔ	32 – Ⓐ Ⓑ Ⓒ Ⓓ Ⓔ	52 – Ⓐ Ⓑ Ⓒ Ⓓ Ⓔ
13 – Ⓐ Ⓑ Ⓒ Ⓓ Ⓔ	33 – Ⓐ Ⓑ Ⓒ Ⓓ Ⓔ	53 – Ⓐ Ⓑ Ⓒ Ⓓ Ⓔ
14 – Ⓐ Ⓑ Ⓒ Ⓓ Ⓔ	34 – Ⓐ Ⓑ Ⓒ Ⓓ Ⓔ	54 – Ⓐ Ⓑ Ⓒ Ⓓ Ⓔ
15 – Ⓐ Ⓑ Ⓒ Ⓓ Ⓔ	35 – Ⓐ Ⓑ Ⓒ Ⓓ Ⓔ	55 – Ⓐ Ⓑ Ⓒ Ⓓ Ⓔ
16 – Ⓐ Ⓑ Ⓒ Ⓓ Ⓔ	36 – Ⓐ Ⓑ Ⓒ Ⓓ Ⓔ	56 – Ⓐ Ⓑ Ⓒ Ⓓ Ⓔ
17 – Ⓐ Ⓑ Ⓒ Ⓓ Ⓔ	37 – Ⓐ Ⓑ Ⓒ Ⓓ Ⓔ	57 – Ⓐ Ⓑ Ⓒ Ⓓ Ⓔ
18 – Ⓐ Ⓑ Ⓒ Ⓓ Ⓔ	38 – Ⓐ Ⓑ Ⓒ Ⓓ Ⓔ	58 – Ⓐ Ⓑ Ⓒ Ⓓ Ⓔ
19 – Ⓐ Ⓑ Ⓒ Ⓓ Ⓔ	39 – Ⓐ Ⓑ Ⓒ Ⓓ Ⓔ	59 – Ⓐ Ⓑ Ⓒ Ⓓ Ⓔ
20 – Ⓐ Ⓑ Ⓒ Ⓓ Ⓔ	40 – Ⓐ Ⓑ Ⓒ Ⓓ Ⓔ	60 – Ⓐ Ⓑ Ⓒ Ⓓ Ⓔ

PORTUGUÊS

Janaína Arruda

Diploma não dá dinheiro

Para Alison Wolf, professora de educação do King's College, de Londres, fazer faculdade não garante bons salários. Na Era do Conhecimento, a saída pode ser o telemarketing.

Por que hoje, no Brasil e no mundo, as pessoas vão mais à universidade?

O principal motivo para essa expansão é o aumento da demanda dos estudantes, e não do mercado. As pessoas acham muito arriscado não ter um diploma universitário. A ideia básica é que, se você não tiver curso superior, não estará competindo pelos melhores empregos.

Há vagas para todos esses formados?

Não. E há um outro problema: a massificação do ensino superior mudou o comportamento dos empregadores. Vários trabalhos que não precisavam dessa qualificação agora precisam, simplesmente porque as empresas consideram que quem nem se deu ao trabalho de fazer faculdade não está preparado para o mercado. O diploma não serve mais para abrir portas profissionalmente, mas, sim, para não fechá-las.

Onde estão os empregos no mundo atual?

Basicamente, nos setores que não necessitam de tanta especialização. O chamado telesserviço ou telemarketing, por exemplo, é uma das atividades que mais crescem no mundo e não requer experiência superior.

No Brasil, o governo gasta 14 vezes mais com um estudante da educação superior do que com o aluno da educação básica. Isso faz sentido?

O problema é que num país em desenvolvimento não se pode simplesmente abandonar a universidade. A sociedade precisa de universidades atrativas, que sejam reconhecidas e gerem conhecimento, e o governo precisa efetivamente de pessoas altamente qualificadas – médicos, professores... Senão, como o país pretende crescer? Se as universidades públicas fossem gerenciadas de maneira mais profissional, talvez não se gastasse tanto. E acredito que, se você vai à universidade e depois tem um grande benefício profissional e econômico com essa educação, é totalmente razoável que você pague de volta à instituição pela formação recebida.

(Adaptado de: Superinteressante, nov. 2007.)

01. Assinale a alternativa que está de acordo com as declarações de Alison Wolf:

a) Aquele que não possui diploma superior tem uma maior facilidade de encontrar emprego.

b) O investimento em educação superior por parte do Estado traz benefícios para a sociedade e o governo.

c) A fim de evitar gastos, a administração da universidade pública deveria ser feita por profissionais externos, o que não ocorre atualmente.

d) O aumento da exigência de curso superior pelas empresas empregadoras deve-se à maior especialização do mercado de trabalho.

e) Grande parte das vagas de emprego disponíveis no mercado encontra-se em setores que exigem formação especializada.

02. Qual das alternativas abaixo NÃO corresponde às ideias presentes no texto?

a) Atualmente, em diversas empresas, o diploma passou de meio para novas oportunidades à condição obrigatória de contratação.

b) Nos países em desenvolvimento, o Estado não pode deixar de investir na educação superior.

c) A expansão da universidade ocorreu devido à procura dos estudantes por formação superior.

d) Existem possibilidades de trabalho para todos os formados, desde que eles procurem se especializar cada vez mais para atender a demanda de mercado.

e) Pessoas formadas na universidade e bem-sucedidas na sociedade deveriam recompensar a instituição.

03. *"Há vagas para todos esses formados?"* Qual das frases abaixo também está de acordo com a norma padrão do português escrito?

a) Existirão vagas para todos esses formados?

b) Conseguirá vagas todos esses formados?

c) Tem vagas todos esses formados?

d) Haverão vagas para todos esses formados?

e) Ocorre vagas para todos esses formados?

04. "Por que hoje, no Brasil e no mundo, as pessoas vão mais à universidade?" Em qual das frases estão corretos o uso e a grafia da expressão sublinhada?

a) Estimular cursos médios e pós-médios é bom ***por que*** esse nível de formação atende ao mercado de trabalho.

b) Os adolescentes não estudam mais tempo ***por que*** não querem ou não necessitam.

c) Gostaríamos de saber ***por que*** esse projeto não rende bons resultados.

d) Fica difícil entender o ***por que*** de tanta insistência nos cursos profissionalizantes médios.

e) E não se deve propagar essas modalidades de estudo ***por que***?

Práticas especiais para o Nível de Biossegurança 2 (NB 2)

Além das práticas especiais descritas para o NB 1 devem ser observadas para o NB 2 as práticas a seguir discriminadas:

O Pesquisador Principal tem a responsabilidade de limitar o acesso ao laboratório. Cabe ao Pesquisador Principal a responsabilidade de avaliar cada situação e autorizar quem poderá entrar ou trabalhar no laboratório.

O Pesquisador Principal deve estabelecer políticas e procedimentos com ampla informação a todos que trabalhem no laboratório sobre o potencial de risco relacionado ao trabalho, bem como sobre os requisitos específicos para entrada em laboratório e em salas onde ocorra manipulação de animais.

No interior do laboratório, os frequentadores devem utilizar roupas apropriadas, tais como jalecos, gorros, máscaras etc.

Antes de sair do laboratório para áreas externas (biblioteca, cantina, escritório administrativo), a roupa protetora deve ser retirada e deixada no laboratório. Quando organismos contendo moléculas de DNA/RNA recombinantes estiverem sendo manipulados, são exigidos requisitos especiais para a entrada de pessoal no laboratório (por exemplo, a vacinação). Deve ser colocado um aviso sinalizando o risco, identificando o agente e o nome do Pesquisador Principal, endereço completo e diferentes possibilidades de sua localização ou outra pessoa responsável. Todos os requisitos necessários para a entrada no laboratório devem estar assinalados na porta de entrada, ao lado de fora.

05. Sobre o trecho apresentado, é correto afirmar:

a) Restringe-se a prescrever práticas e ações desempenhadas no interior do laboratório.

b) Antevê função e tarefas para o agente do Pesquisador Principal.

c) Apresenta todas as práticas especiais que o grupo de trabalho no laboratório deve conhecer.

d) Insiste na apresentação de informação sobre risco relacionado ao trabalho.

e) Dá acesso irrestrito ao laboratório para pesquisadores interessados.

06. Qual das ações abaixo está de acordo com as instruções da Comissão de Biossegurança no texto apresentado?

a) Caso um frequentador do laboratório precise ausentar-se brevemente, esse deve vestir a roupa protetora para deixar o local.

b) Logo após estabelecer a equipe autorizada pelo Pesquisador Principal, retira-se da porta o aviso sobre requisitos para entrar.

c) No momento da manipulação de organismo contendo molécula de DNA/RNA recombinante, o Pesquisador Principal deve impedir a entrada no laboratório de um indivíduo que não atende aos requisitos específicos do procedimento em curso.

d) Um frequentador do laboratório atua nele sem conhecer as práticas especiais para o NB 1.

e) Na fala do Pesquisador Principal, e sem conhecimento deste, outro frequentador autoriza a entrada de um docente da instituição no laboratório.

07. Que alternativa NÃO mantém o sentido da frase a seguir?

Para satisfazer as necessidades do consumidor não basta apenas oferecer produtos de baixo custo.

a) Não basta oferecer produtos de baixo custo e satisfazer as necessidades do consumidor.

b) A fim de satisfazer as necessidades do consumidor, é necessário oferecer produtos de baixo custo, entretanto isso não basta.

c) Precisa-se oferecer produtos de baixo custo, todavia isso não basta para satisfazer as necessidades do consumidor.

d) Oferecer produtos de baixo custo não basta para satisfazer as necessidades do consumidor.

e) A fim de satisfazer as necessidades do consumidor é preciso fazer mais que oferecer produtos de baixo custo.

08. Após receber um colega para proferir conferência, o docente anfitrião escreve-lhe um bilhete de agradecimento. Qual das alternativas completa o bilhete de forma correta quanto ao uso dos pronomes?

Prezado Colega,

.....

Cordialmente,

Dr. Docente Anfitrião

a) Sou-lhe muito grato por vossa conferência. Foi um sucesso!

b) Agradeço-lhe sua conferência. Foi um sucesso!

c) Gostaria de agradecer a Vossa Senhoria vossa conferência. Foi um sucesso!

d) Cumprimento-o por vossa conferência. Foi um sucesso!

e) Agradeço-vos de coração por sua conferência. Foi um sucesso!

09. *"Gostaria de **<u>dar aos cientistas</u>** informações detalhadas sobre o objeto a ser estudado."* Qual das alternativas substitui corretamente a expressão sublinhada na frase, segundo as normas do português padrão?

a) dá-los.

b) dá-lhes.

c) dá-la.

d) dar-lhos.

e) dar-lhes.

10. *"A faculdade* ***em que*** *trabalho tem extensões universitárias em quatro municípios desse estado."* Em qual das alternativas abaixo a parte sublinhada foi substituída de forma correta?

a) A faculdade ***onde*** trabalho tem extensões universitárias em quatro municípios desse estado.

b) A faculdade ***à qual*** trabalho tem extensões universitárias em quatro municípios desse estado.

c) A faculdade ***que*** trabalho tem extensões universitárias em quatro municípios desse estado. d)A faculdade ***que*** trabalho ***nela*** tem extensões universitárias em quatro municípios desse estado.

e) A faculdade ***em cujo*** trabalho tem extensões universitárias em quatro municípios desse estado.

11. No *trecho "Como a sala em que se encontram as plantas é estéril, a alface não está sujeita a pragas, dispensando o uso de agrotóxico"*, estabelece-se entre a oração "como a sala é estéril" e a oração "a alface não está sujeita a pragas" uma relação de:

a) conformidade.

b) oposição.

c) reciprocidade.

d) temporalidade.

e) causa.

A charge abaixo é referência para as questões 12 e 13.

(Disponível em http://www.setelist.com.br/index.php/7-imagens-da-briga-biscoito-x-bolacha/Acesso em 16 dez.2014)

12. Identifique como verdadeiras (V) ou falsas (F) as seguintes afirmativas:

( ) Ao analisar o contexto apresentado, percebe-se que o humor da charge se relaciona a uma distinção corrente em torno do nome de um alimento.

( ) A charge apresenta um erro, uma vez que o termo "biscoito" é a única forma correta para nomear o alimento feito farinha, água ou leite, sal ou açúcar, assado no forno em pequenas porções.

( ) O efeito de humor da charge se baseia na interpretação de que o termo "bolacha" pode ser sinônimo de "bofetada".

( ) A charge traz implícita a ideia de que o aprendizado acontece por recompensa do acerto e punição do erro, e que Robin tem de apanhar até aprender a palavra correta que dá nome ao alimento.

Assinale a alternativa que apresenta a sequência correta, de cima para baixo.

a) F – F – F – V.

b) V – F – F – V.

c) V – V – V – F.

d) F – V – V – F.

e) V – F – V – F.

13. Para que obedeça à norma culta da língua, a sentença "Te pedi um pacote de bolachas e você me trouxe biscoitos!" deve ser reformulada como:

a) Pedi para ti um pacote de bolachas e você me trouxe biscoitos.

b) Pedi-lhe um pacote de bolachas e você me trouxe biscoitos.

c) Te pedi um pacote de bolachas e tu me trouxestes biscoitos.

d) Te pedi um pacote de bolachas e tu me trouxe biscoitos.

e) Pedi-te um pacote de bolachas e tu me trouxe biscoitos.

14. Considere o trecho abaixo:

O produto ___ venda nos mercados é uma fraude. Dizem que ___ nele um ingrediente que não existe, por isso a empresa que fabrica o produto já foi avisada de que será imposta ___ ela uma multa de alto valor por manter essa mercadoria em estoque.

Assinale a alternativa que preenche corretamente as lacunas acima.

a) a – há – à.

b) à – a – à.

c) há – a – a.

d) a – a – há.

e) à – há – a.

15. Considere a seguinte a sentença:

As regiões sul e oeste foram as mais atingidas, sendo que próximo ao aeroporto de Congonhas foi detectado ventos de até 96 km/h às 0h15.

(Disponível em: <http://noticias.uol.com.br/cotidiano/ultimas-noticias/2014/12/29/parque-do-ibirapuera-reabre-parcialmente-depois-de-arvorescaidas-por-chuva.htm>. Acesso 29 dez. 2014)

Sobre essa sentença, é correto afirmar:

a) A construção "as regiões sul e oeste" deve ser reescrita como "a região sul e a região oeste" para evitar problemas de interpretação.

b) O termo "próximo" deveria ser substituído por "próximos", para concordar com "ventos de até 96km/h".

c) A fim de se adequar às normas gramaticais, os verbos da expressão "foi detectado ventos" devem ser flexionados no plural.

d) A abreviação para a unidade de medida de tempo está incorreta e deve ser substituída por 0hr15m.

e) O trecho "sendo que" não é adequado à norma gramatical e, por isso, precisa ser substituída por "porque".

RACIOCÍNIO MATEMÁTICO

Guilherme Neves

16. Em um censo realizado em uma cidade em que são consumidos somente as pastas de dente das marcas X, Y e Z, verifica-se que:

I. 40% consomem X.

II. 40% consomem Y.

III. 47% consomem Z.

IV. 15% consomem X e Y.

V. 5% consomem X e Z.

VI. 10% consomem Y e Z.

VII. qualquer elemento da população consome pelo menos uma marca de pasta de dente.

Qual o percentual de habitantes da cidade que consomem uma e somente uma marca de pasta de dente?

a) 80%.

b) 76%.

c) 79%.

d) 70%.

e) 60%.

17. Em um curso de Matemática, sabe-se que 2/3 dos alunos matriculados são mulheres. Em certo dia, 2/5 das mulheres matriculadas no curso estavam presentes e todos os homens matriculados estavam presentes, totalizando 27 alunos (homens e mulheres) presentes na aula. Com base nessas informações, o total de alunos homens matriculados nesse curso é igual a

a) 18

b) 10

c) 15

d) 12

e) 21

18. Duas torneiras de água enchem um tanque. A primeira se aberta sozinha enche o tanque em 9 horas e a segunda também aberta sozinha enche o tanque em 15 horas. Estando o tanque vazio e abrindo a primeira torneira durante 3 horas e em seguida fechando esta e abrindo a outra torneira, em quanto tempo o tanque estará cheio contando desde o início das operações com as torneiras?

a) 10 h

b) 11 h

c) 12 h

d) 13 h

e) 14h

19. Um relatório de 20 páginas foi fotocopiado na papelaria próxima da escola, onde fotocópias normais, em preto e branco, custam R$ 0,30 cada uma, e as coloridas custam R$ 1,50 cada uma. Foi feita uma cópia de cada página, sendo algumas delas coloridas, e o total gasto foi R$ 15,60. Assim, pode-se concluir que só as cópias coloridas custaram

a) R$ 13,50.

b) R$ 12,00.

c) R$ 10,50.

d) R$ 9,00.

e) R$ 7,50.

20. Um professor distribuiu um certo número de folhas de papel sulfite entre 3 grupos, para a apresentação de seus trabalhos. Para o grupo A, ele deu a terça parte do total; para o grupo B, entregou 3 folhas a menos do que para o grupo A, e para o grupo C, ele deu o dobro do que havia dado para o grupo B. Assim, o grupo B recebeu

a) 6 folhas.

b) 8 folhas.

c) 12 folhas.

d) 18 folhas.

e) 27 folhas.

21. Se a professora de matemática gastar 7,5 minutos, em média, na correção de cada prova, ela poderá corrigir todas as provas em 5 horas. Como pretende concluir a correção em apenas 4 horas, o tempo médio gasto na correção de cada prova deverá ser de, no máximo,

a) 7 minutos.

b) 6,5 minutos.

c) 6,2 minutos.

d) 6 minutos.

e) 5,5 minutos.

22. Somando-se o número **n** a cada um dos termos da fração 4/7, obtém-se uma nova fração cujo valor é 0,7. O valor de **n** é

a) 1.

b) 2.

c) 3.

d) 10.

e) 14.

23. Na prateleira de uma estante estão dispostos 10 livros de matemática, 12 livros de estatística e 15 livros de geometria. O menor número de livros que se devem retirar ao acaso dessa prateleira para que se tenha certeza de que dentre os livros retirados haja um de matemática, um de estatística e um de geometria é igual a

a) 26.

b) 23.

c) 27.

d) 28.

e) 29.

24. As medidas das telas dos televisores são feitas segundo a diagonal do retângulo ou quadrado que as define. Um aparelho de 32 polegadas teve sua diagonal medida com uma régua milimetrada que acusou 80 cm. Assim, quando a tela de um televisor de 42 polegadas for medida com a mesma régua, esta acusará

a) 90 cm.

b) 95 cm.

c) 100 cm.

d) 105 cm.

e) 110 cm.

25. Uma jarra está com refresco até 3/4 de sua capacidade máxima. Foram colocados 100 mL e ficou faltando 1/5 de refresco para completar a capacidade máxima da jarra. Pode-se concluir que essa jarra tem uma capacidade máxima, em litros, igual a

a) 1

b) 2

c) 3

d) 4

e) 5

26. Em um ponto de pedágio, o valor cobrado para carros é R$ 9,00, e para caminhões, R$ 3,00 por eixo. Em um determinado dia, passaram pela praça de pedágio apenas carros e caminhões de 4 ou 5 eixos. Sabendo que para cada 7 caminhões de 4 eixos passaram 4 caminhões de 5 eixos, que 1.000 carros pagaram pedágio e que o total arrecadado foi R$ 23.400,00, o número de caminhões que pagaram pedágio foi

a) 900.

b) 1.000.

c) 1.100.

d) 1.200.

e) 1.400.

27. O setor pedagógico do Estratégia tem 14 funcionários, dos quais 8 são homens e 6, mulheres. Para organizar um evento com professores, é necessário montar uma comissão com 2 mulheres e 3 homens. De quantas maneiras diferentes essa comissão pode ser escolhida?

a) Mais que 900

b) Mais que 850 e menos que 900

c) Mais que 800 e menos que 850

d) Mais que 750 e menos que 800

e) Menos que 750

GEOGRAFIA

Sérgio Henrique

28. No Brasil, desde 1997, o sistema previdenciário é deficitário, o que obriga o Tesouro Nacional a cobrir o rombo. A respeito da origem do contínuo déficit da Previdência Social, assinale a afirmação correta.

a) O aumento do emprego informal, procedimento adotado para estimular a retomada do crescimento econômico, desonera a folha de pagamento, o que diminui a arrecadação.

b) O crescimento do desemprego leva o governo a suspender o seguro-desemprego e o abono salarial, o que deteriora a contabilidade previdenciária.

c) A Constituição Federal de 1988 obrigou os trabalhadores rurais a contribuir para a Previdência, o que compensa o déficit previdenciário gerado pelos trabalhadores urbanos.

d) O Brasil desfruta do bônus demográfico, ou seja, tem mais pessoas aposentadas do que em idade ativa, o que deverá agravar o déficit do sistema previdenciário nos próximos anos.

e) A população em idade ativa, majoritária hoje, está envelhecendo, sem que haja um contingente equivalente de jovens no mercado de trabalho para arcar com o aumento futuro dos custos da aposentadoria.

29. Analise a distribuição da PEA (População Economicamente Ativa) por setor de atividade e assinale a alternativa que melhor explique seu significado.

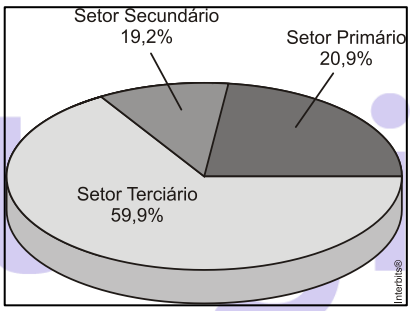

a) Com maior contingente de trabalhadores no setor primário do que no secundário, pode-se afirmar que o Brasil, a despeito do crescimento econômico, ainda se mantém como uma economia agroexportadora.

b) O setor secundário emprega cerca de um terço do que emprega o setor terciário, o que indica que a economia brasileira é assentada mais pelo capital especulativo do que pelo capital produtivo.

c) O grande contingente de trabalhadores no setor terciário é típico de um país urbanizado, dado que as atividades deste setor são mais intensas em cidades.

d) O setor primário emprega 20,9% da PEA, o que indica que seu desenvolvimento é orientado por uma estrutura agrícola tradicional que demanda mão de obra numerosa.

e) Os setores primário e secundário empregam percentuais bem inferiores da PEA, em relação ao terciário, o que é um indicador de déficit na balança comercial, na medida em que demonstra que o país não produz a maior parte dos produtos industriais e agrícolas para atender à demanda interna.

30. "Os países ricos, em função de sua renda mais elevada e consequente nível de consumo, são responsáveis por mais de metade do aumento da utilização de recursos naturais. A população dos países mais pobres do mundo paga, proporcionalmente, o preço mais elevado pela poluição e degradação das terras, das florestas, dos rios e dos oceanos, que constituem o seu sustento. Uma criança que nascer hoje em Nova lorque, Paris ou Londres vai consumir, gastar e poluir mais durante a sua vida do que 50 crianças em um país 'em desenvolvimento'."

(Adapt.) Relatório do Desenvolvimento Humano/ PNUD, 1998.

Baseando-se nos princípios explicativos das teorias demográficas, o texto acima:

a) Concorda com a teoria Reformista, que atribui ao excesso populacional a causa da miséria no mundo, constituindo uma ameaça aos recursos naturais necessários à sobrevivência humana.

b) Comprova a teoria Neomalthusiana, que defende a necessidade de controlar a natalidade nos países pobres, para que eles possam atingir os níveis de desenvolvimento e consumo dos países ricos.

c) Nega a teoria Malthusiana, que defende a elevação do padrão de vida e de consumo nos países pobres, entendendo a fecundidade como uma variável independente a ser controlada.

d) Nega a teoria Neomalthusiana, que identifica uma população numerosa como principal causa do desemprego, pobreza e esgotamento dos recursos naturais.

e) Comprova a teoria Malthusiana, que associa crescimento populacional e esgotamento dos recursos naturais, defendendo a necessidade de reformas socioeconômicas para preservá-los.

31. No desenvolvimento histórico do estado do Paraná desde o século XVI até os dias atuais são registros significativos:

I. A expansão cafeeira no século XX atraiu imigrantes de outros estados para o Paraná, além de europeus e japoneses.

II. No período do Império, o estado do Paraná tornou-se uma província independente, tendo sua economia impulsionada pelo cultivo da erva-mate.

III. Grandes companhias de colonização, como a Paraná Plantation, do Reino Unido, atuaram no estado derrubando matas e abrindo caminhos para lavouras e cidades.

É correto o que se afirma em

a) I, II e III.

b) I, somente.

c) II, somente.

d) I e III, somente.

e) II e III, somente.

32. A atividade econômica do litoral do Paraná está associada a ecossistemas florestais naturais remanescentes, geralmente ocupados por populações tradicionais como índios, caiçaras, quilombolas, caboclos e faxinais. Qual atividade econômica está associada ao texto?

a) Pesca artesanal e processamento do pescado.

b) Exploração de salinas, extração de palmito e banana.

c) Extrativismo de produtos florestais não madeiráveis.

d) Exploração de pinus, palmito, pescado e batatas.

33. A RMC – Região Metropolitana de Curitiba é o principal polo urbano e industrial do estado, e de acordo com o IBGE uma das nove regiões metropolitanas brasileiras. As cidades do entorno de Curitiba são privilegiadas em investimentos, como por exemplo São José dos Pinhais, que é um dos principais polos automobilísticos do país. Um grupo de investidores vai visitar fisicamente a infraestrutura municipal oferecida.

Mapa 1

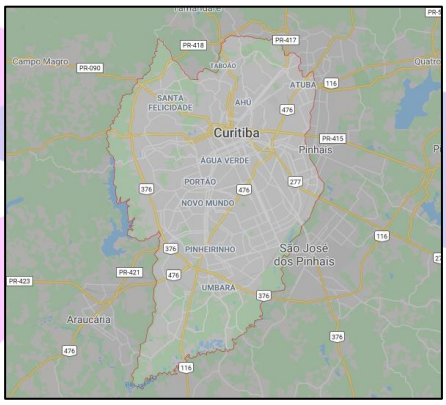

Mapa 2

Para que os investidores possam se locomover na cidade com mais facilidade, o tipo de representação cartográfica que melhor o orientará é o apresentado na

a) Figura 1, porque tem uma escala pequena, expressando uma área maior, com menor número de detalhes.

b) Figura 1, que possui uma escala grande, representando uma área menor, com maior grau de detalhamento.

c) Figura 2, que possui uma escala grande, representando uma área maior, com menor grau de detalhamento.

d) Figura 2, porque tem uma escala pequena, expressando uma área menor, com maior número de detalhes.

34. Confira a lista completa das nove cidades paranaenses para investir no estudo:

- ✓ Curitiba – 1.ª colocada estadual; 11.ª nacional
- ✓ Maringá – 2.ª estadual; 21.ª nacional
- ✓ Londrina – 3.ª estadual; 25.ª nacional
- ✓ Araucária – 4.ª estadual; 47.ª nacional
- ✓ Cascavel – 5.ª estadual; 50.ª nacional
- ✓ São José dos Pinhais – 6.ª estadual; 51.ª nacional
- ✓ Umuarama – 7.ª estadual; 74.ª nacional
- ✓ Toledo – 8.ª estadual; 82.ª nacional
- ✓ Pinhais – 9.ª estadual; 94.ª nacional

https://www.direitoempresarial.com.br/parana-tem-nove-cidades-entre-as-100-melhores-do-pais-para-fazer-negocios/

Um município paranaense está representado no mapa abaixo. Entre os fatores locacionais que atraem investimentos, é a infraestrutura de meios técnicos de comunicação e transporte, e você está encarregado de identificar os melhores lugares para a instalação de um polo industrial e uma torre de telecomunicações.

Representado na planta abaixo, dividido em regiões de A a I, com altitudes de terrenos indicadas por curvas

de nível, precisa decidir pela localização das seguintes obras:

1. Instalação de um parque industrial.

2. Instalação de uma torre de transmissão e recepção.

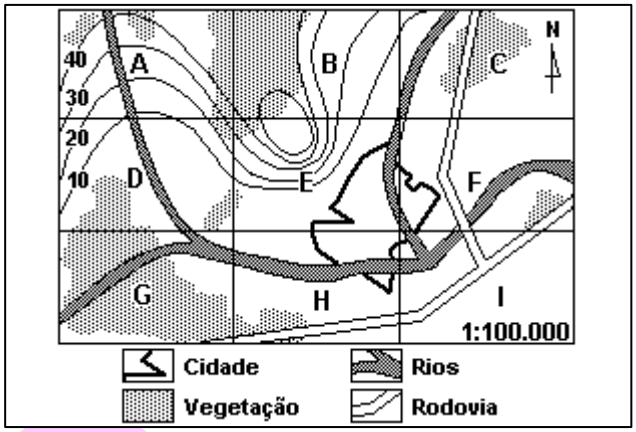

Considerando impacto ambiental e adequação, as regiões onde deveriam ser, de preferência, instaladas indústrias e torres, são, respectivamente:

a) E e G.

b) H e A.

c) I e E.

d) B e I.

e) E e F.

35. Mortes por afogamento não são acidentes e podem ser evitados

Muito se tem ouvido nos noticiários sobre mortes ocorridas em praias e piscinas, a segunda com maior frequência. Em sua grande maioria, as vítimas são crianças na faixa de idade de 1 a 9 anos, que estão em seus momentos de lazer. A causa desse trauma está na falta de prevenção e cuidado. No mundo, cerca de 500 mil pessoas morrem afogadas, no Brasil esse número é bastante alto também, aproximadamente 7 mil pessoas. Apesar de todos os dias ocorrerem mortes por afogamento, poucos são os noticiados. Mas é preciso ter cuidado, afogamento não é acidente, não acontece por acaso, tem prevenção, e esta é a melhor forma de tratamento!

http://www.bombeiros.pr.gov.br/Pagina/Afogamentos.

Considere que foi solicitado ao Corpo de Bombeiros Militar a busca de um jovem desaparecido após afogamento em um rio. Analise esta carta topográfica de trecho do rio onde ocorreu o referido afogamento.

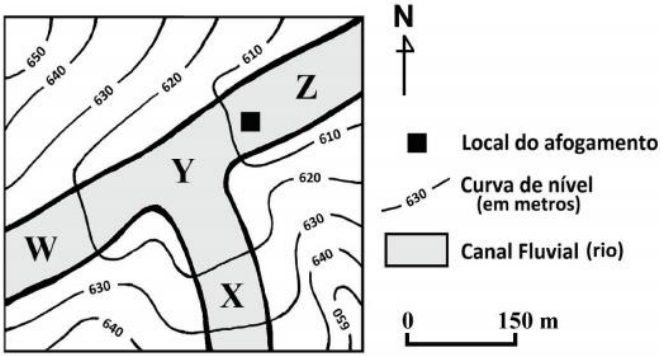

O Corpo de Bombeiros Militar iniciou a busca pelo jovem desaparecido a partir do local do afogamento, estendendo-a à jusante, em direção ao ponto

a) X.

b) Y.

c) Z.

d) W.

36. Examine a seguinte figura:

http://www.progonos.com/furuti/MapProj/Dither/TOC/cartTOC.html

A figura acima contém diferentes representações da América do Sul extraídas de mapas-múndi. Isso se deve

a) à existência de diversas formas de projeções cartográficas, que constituem a técnica variável de se trazer para o plano o que é curvo na realidade.

b) à multiplicidade de projeções cartográficas, todas igualmente precisas na representação das formas e dos tamanhos dos continentes.

c) à permanência das antigas projeções por costume problemático do sistema escolar, pois as tecnologias informatizadas tornaram as projeções obsoletas.

d) às escolhas marcadas por interesses dos cartógrafos que definem as projeções, visando a projetar imagens do mundo mais favoráveis aos países mais ricos.

e) à herança do passado das técnicas cartográficas, quando ainda não havia sido solucionado definitivamente a questão de como projetar o plano no curvo.

37. Observe o gráfico a seguir.

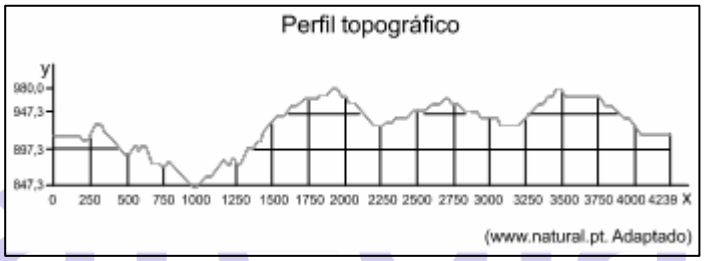

Os eixos X e Y que compõem a construção do perfil topográfico dizem respeito, respectivamente,

a) à altitude e à distância.

b) à longitude e à latitude.

c) à distância e à altitude.

d) à altitude e à latitude.

e) à distância e à longitude.

38.

América do Sul com a localização do Lago de Itaipu

Com base nos conhecimentos sobre usinas hidrelétricas e na análise do mapa, atribua V (verdadeiro) ou F (falso) para as afirmativas a seguir.

( ) No mapa, é possível visualizar alagamentos de grandes áreas a montante da barragem, formando o lago de Itaipu; já a jusante do curso do rio Paraná, a vazão mostra-se reduzida.

( ) A usina de Itaipu foi a primeira obra a utilizar Estudos e Relatórios de Impacto Ambiental (EIA-RIMA) para a preservação de sítios arqueológicos e de territórios habitados pelas populações ribeirinhas.

( ) Apesar da amplitude do lago de Itaipu, a sua formação não gerou variabilidade climática na região, entretanto causou influências no microclima local, com o aumento do albedo nessas áreas.

( ) Os municípios envolvidos na implantação de uma usina hidrelétrica recebem royalties como compensação financeira pela utilização do potencial hidráulico dos rios.

( ) O relevo propício para a construção de usinas hidrelétricas abarca planaltos como o de Foz do Iguaçu, com rios caudalosos e de boa vazão.

Assinale a alternativa que contém, de cima para baixo, a sequência correta.

a) V, V, V, F, F.

b) V, F, V, V, V.

c) V, F, F, V, V.

d) F, V, F, F, F.

e) F, F, F, F, V.

39. O estado do Paraná é constituído por três Planaltos, que se apresentam como típica paisagem de degraus estruturais ou escarpas de estratos.

Com base nos conhecimentos sobre os Planaltos paranaenses, assinale a alternativa correta.

a) O Primeiro Planalto é formado pelos campos de Curitiba e Castro e divide-se em três regiões: Planalto de Curitiba, Região Açungui e Planalto Maracanã.

b) O Primeiro Planalto é formado pelos campos de Cambará e Iguaçu, onde se encontram os principais bens minerais energéticos, como carvão mineral, urânio e xisto pirobetuminoso.

c) O Segundo Planalto, formado pelos campos de Palmas, é a região onde se localizam os minerais metálicos, como ouro e prata.

d) O Segundo Planalto representa o plano de declive que forma a encosta Serra Geral do Paraná, denominada de escarpa mesozoica.

e) O Terceiro Planalto, formado pelos campos Gerais e pelo Aquífero Carste, apresenta várias quedas d'água, como Salto São Francisco.

HISTÓRIA

Sérgio Henrique

40.

"O movimento de 31 de março de 1964 tinha sido lançado aparentemente para livrar o país da corrupção e do comunismo e para restaurar a democracia, mas o novo regime começou a mudar as instituições do país através de decretos, chamados de Atos Institucionais (AI). Eles eram justificados como decorrência 'do exercício do Poder Constituinte, inerente a todas as revoluções'".

(FAUSTO, B. "História do Brasil". São Paulo: Editora da Universidade de São Paulo, 1996. p. 465.)

Com base no texto, assinale a alternativa correta.

a) O AI-5 foi o instrumento que mais contribuiu para que o regime militar seguisse o curso de uma ditadura. A partir da sua instituição, vários atos de repressão passaram a fazer parte dos métodos utilizados pelo governo.

b) O Ato Institucional n0. 1, instituído pelos comandantes do Exército, atingiu principalmente o patrimônio da Igreja Católica e promoveu o início da secularização da sociedade brasileira.

c) Logo após o golpe militar de 1964, as eleições para Presidente da República foram estabelecidas de forma democrática através de eleições diretas.

d) A principal orientação dos governos militares foi a aproximação com os Estados Unidos, afastando-se da tendência nacionalista que vinha sendo empreendida antes do golpe de 1964.

e) Os grupos de luta armada, de orientação socialista, nas conversas e encontros que tinham com os representantes do governo federal reivindicavam o direito à formação de partidos políticos de esquerda.

41. O processo de redemocratização, instaurado no Brasil, em 1946, foi ameaçado durante o governo de Eurico Gaspar Dutra, em razão da sua posição política, uma vez que o presidente

a) alinhou-se à União Soviética, o que provocou pressões políticas e econômicas dos Estados Unidos.

b) cassou os mandatos dos representantes do Partido Trabalhista Brasileiro, por ser um partido de oposição ao seu governo.

c) perseguiu os integralistas e tornou ilegal a Ação Integralista Brasileira, prendendo, inclusive, o seu líder Plínio Salgado.

d) desenvolveu uma política econômica planificada, que provocou insatisfação das multinacionais instaladas no país.

e) colocou o Partido Comunista do Brasil na ilegalidade, rompendo inclusive relações diplomáticas com a URSS.

42.

Apesar de ser uma grande paixão nacional, o futebol, assim como outras modalidades esportivas, ainda é visto com certo preconceito pela academia. Entretanto, engana-se quem pensa que ele não pode servir como objeto de estudo para a compreensão de questões sociais.

Disponível em: https://paineira.usp.br/aun/index.php/author/igor-soares-sodre/ Agência Universitária de Notícias (AUN) – USP, 07 fev. 2018. Acesso em: 15 ago., 2018.

Sobre os temas trazidos na citação, assinale a alternativa CORRETA.

a) Destaque da última copa do Mundo, jogador da Croácia passou por traumática experiência no violento conflito que levou a Iugoslávia ao colapso em 1991.

b) A partir da década de 1990, criam-se vários impeditivos para a participação de imigrantes ou descendentes de imigrantes nas seleções que participam de edições da Copa do Mundo.

c) Muitos imigrantes vieram jogar no Brasil ao final da 2ª Guerra Mundial (1939-1945), quando Getúlio Vargas se aproximou politicamente da Itália, Alemanha e do Japão.

d) Ao sediar uma Copa do Mundo em 2010, a África do Sul terminou com o regime do *Apartheid.* Tratava-se de uma política racial que não dava acesso à participação da população negra nas urnas, além de proibir a aquisição de terras.

e) Em 1970, o Brasil conquistou o título mundial de futebol pela terceira vez. Nesse contexto, o governo do General Médici – considerado o mais repressivo durante os anos ditatoriais – utilizou o esporte para construir uma imagem positiva do regime junto à sociedade brasileira.

43.

"Tomara que chova/Três dias sem parar/ A minha grande mágoa/É lá em casa não ter água/ Eu preciso me lavar/ De promessa eu ando cheio/ Quando eu conto a minha vida/ Ninguém quer acreditar/ O trabalho não me cansa/ O que me cansa é pensar/ Que lá em casa não tem água/ Nem pra cozinhar."

("Tomara que chova", Paquito e Romeu Gentil, sucesso do carnaval de 1951.)

O tempo passou desde o carnaval de 1951. Contudo, na maioria das cidades brasileiras persiste o problema da falta de saneamento básico. Considerando os seus conhecimentos sobre a urbanização no Brasil da década de 1950, é correto afirmar:

a) Os imigrantes que habitavam os cortiços nas cidades do Rio de Janeiro e São Paulo possuíam rede de esgoto e água encanada.

b) A falta de canalização de esgoto e de abastecimento de água, sobretudo nas moradias populares, era responsável pela propagação de várias doenças.

c) O Plano de Metas de Getúlio Vargas implementou soluções para a crise habitacional e de serviços de infraestrutura urbana.

d) A urbanização tardia do território nacional desobrigava os políticos de propor soluções para o saneamento básico.

e) As letras consagradas nas marchas carnavalescas dos anos 50 revelavam o distanciamento da população urbana dos temas sociais.

44. Interprete a seguinte charge.



(ANGELI. In: *Folha de São Paulo*, 10 out. 2002.)

Essa imagem

a) exalta o sucesso do Plano Real na estabilização da economia e no combate à inflação que corroía os salários.

b) evidencia a distância existente entre um país carente de infraestrutura e o processo de modernização econômica empreendido.

c) salienta a importância das privatizações das empresas estatais para a liberação de recursos destinados à educação e a saúde.

d) expõe o esforço do governo em ampliar sua base parlamentar para aprovar emendas constitucionais como a da reeleição presidencial.

45.

Comício pelas Diretas Já! 13/04/1984
Largo da Prefeitura de Porto Alegre-RS.
Foto: Alfonso Abraham

A imagem acima representa um dos aspectos que evidenciou a crise da ditadura militar, após 20 anos de vigência. Em relação ao processo de abertura democrática, analise as afirmações:

I. Em 1979, a Lei da Anistia foi pactuada entre governo e oposição, possibilitando a volta dos exilados políticos e o perdão aos torturadores.

II. A inflação se acelerou e a dívida externa subiu, configurando uma grave crise econômica.

III. A Emenda Dante de Oliveira não foi aprovada e Tancredo Neves foi eleito pelo voto indireto, via Colégio Eleitoral.

IV. Os atentados ocorridos na OAB e no Riocentro demonstraram o descontentamento dos segmentos mais autoritários do regime militar, derrotados pela estratégia da abertura.

V. Dentre os novos partidos que surgiram nessa época, estava a União Democrática Nacional (UDN).

É **verdadeiro** apenas o que se afirmar em:

a) I, II e V.

b) I, II, III e IV.

c) II, III, IV e V.

d) II, III e V.

e) IV e V.

46.

(Fonte: CIÇA. "Pagando o pato". São Paulo: Circo Editorial, 1986. p.105)

A emenda citada na tira anterior

a) permitiu anistiar aqueles que estavam exilados.

b) possibilitou eleições diretas, com a vitória de Tancredo Neves.

c) estabeleceu eleições diretas para prefeitos de capitais.

d) permitiu a criação e o registro de novos partidos políticos.

e) não foi aprovada pelo Congresso Nacional.

47. Leia o texto e o mapa a seguir.

Os primeiros a fazerem uso da erva-mate foram os índios Guaranis, que habitavam a região definida pelas bacias dos rios Paraná, Paraguai e Uruguai, na época da chegada dos colonizadores espanhóis. Da metade do século XVI até 1632, a extração de erva-mate era a atividade econômica mais importante da Província Del Guairá, território que abrangia

praticamente o Paraná e no qual foram fundadas 3 cidades espanholas e 15 reduções jesuíticas.

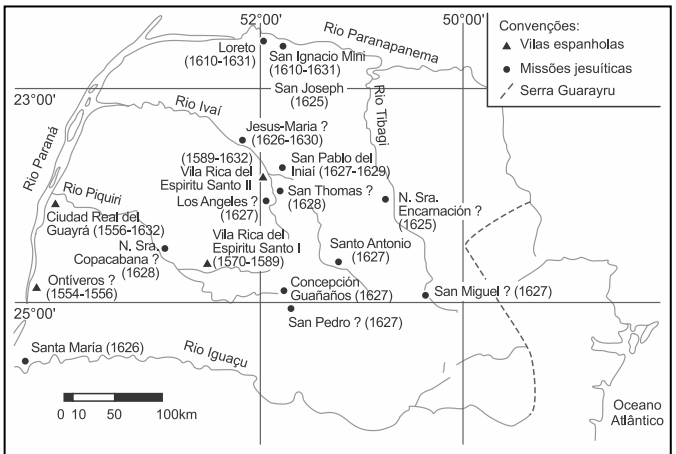

(Disponível em: <http://www.museuparanaense.pr.gov.br/modules/conteudo/conteudo.php?conteudo=62>. Acesso em: 12 jul. 2016.)

Com base nos conhecimentos sobre a presença da erva-mate *Ilex paraguariensis* no Estado do Paraná, considere as afirmativas a seguir.

I. A presença do mate na porção oeste do Estado propiciou o desenvolvimento da ferrovia naquela região.

II. O interior do Paraná transformou-se com a crescente importância da indústria do mate, pois a intensificação do extrativismo favoreceu a ocupação de áreas basicamente inexploradas.

III. A área compreendida entre os vales dos rios Ivaí e Tibagi foi adquirida pelo capital inglês, interessado na exploração dos ervais da região.

IV. A intensificação do extrativismo do mate e a crescente importância da sua indústria favoreceram a ocupação e a substituição de áreas anteriormente voltadas ao plantio de café.

Assinale a alternativa correta.

a) Somente as afirmativas I e II são corretas.

b) Somente as afirmativas I e IV são corretas.

c) Somente as afirmativas III e IV são corretas.

d) Somente as afirmativas I, II e III são corretas.

e) Somente as afirmativas II, III e IV são corretas.

48. A Carta Régia de 1722, conforme Santos (2001) determinava que fosse permitido aos habitantes do sul do Brasil que estabelecessem relações comerciais com a Colônia do Sacramento (Uruguai) e consequentemente Buenos Aires. Outros produtos também poderiam ser exportados pelo Porto de Paranaguá. Na pratica isso representava:

a) uma exigência das missões jesuíticas portuguesas, para se conectarem através do comércio de Erva Mate com as missões jesuíticas espanholas.

b) uma provocação à Espanha, de modo a tentar provocar um conflito e anexar a foz do rio da prata.

c) uma sinalização de paz, dado que era interesse espanhol, comercializar com os portugueses na região.

d) uma tentativa de consolidar os acordos estabelecidos pelo Tratado de Madri, quando Portugal entregou a colônia de Sacramento, para evitar um conflito maior na região.

e) o fim do monopólio comercial português na região e do exclusivo colonial, que foi suspenso em 1808 com a abertura dos portos feita por Dom. João VI.

49. Manifestações relevantes para a memória, identidade e formação da sociedade podem ser registradas e protegidas como patrimônio cultural imaterial. No estado do Paraná, integram essa categoria de patrimônio

a) as cataratas do Iguaçu, na tríplice fronteira.

b) o barreado e a cachaça morretiana do litoral paranaense.

c) o Largo da Ordem e o centro histórico de Curitiba.

d) o café e o chimarrão produzidos no interior do estado.

e) as reservas de mata atlântica e a Ilha do Mel.

INFORMÁTICA

Ranielison Passos

50. Qual das alterativas abaixo descreve o campo de destinatário preenchido em um e-mail que não recebe as respostas caso outros endereçados clique em responder a todos.
a) Para
b) Com cópia oculta (Cco)
c) Com cópia (Cc)
d) Assunto
e) Anexo

51. Em sua configuração padrão, o navegador de internet Google Chrome exibe ao usuário toda vez for aberto a:
a) página de inicialização.
b) página inicial (Home Page).
c) página principal.
d) página central.
e) página de configuração.

52. Sobre o processador de planilhas Calc, da suíte LibreOffice:

	A	B	C	D	E	F	G	H
1								
2		3000	8000	4000	1000	4000	####	
3								

Suponde que na célula selecionada exista uma função para calcular a média de todo o intervalo de B2 até F2. O resultado da célula G2 é apresentado dessa forma (####) devido:
a) a utilização do caractere * fora de parênteses;
b) a função média não ser possível de aplicação no intervalo indicado;
c) o resultado só poder ser apresentado na linha abaixo, não na coluna seguinte;
d) a função estar digitada em maiúsculo;
e) a célula não ser larga o suficiente para retornar o resultado.

A Polícia Militar do Paraná integra o sistema de segurança pública e defesa social do Brasil, e tem por missão a preservação da ordem pública, o policiamento ostensivo e a execução de atividades de defesa civil no estado do Paraná, além de outras atribuições previstas na legislação federal e estadual.

53. De acordo com a imagem anterior, retirada de um texto em produção no aplicativo Writer, da suíte LibreOffice, e considerando ainda que a palavra **ostensivo** esteja selecionada. Ao pressionar a tecla de atalho Home o apontador (cursor) do mouse será movido para o início:
a) da tela.
b) da linha.
c) da página.
d) do parágrafo.
e) do documento.

54. Em consideração ao Sistema Operacional Microsoft Windows 10, julgue os itens a seguir.
I. Pelo menu Iniciar é possível encontrar os principais aplicativos instalados pelo usuário.
II. É possível sincronizar uma conta de usuário à nuvem.
III. É possível realizar autenticação de sessão por biometria, além do recurso de senha comum.
Verifica-se que está(ão) correta(s)
a) I, apenas.
b) III, apenas.
c) I e II, apenas.
d) II e III, apenas.
e) I, II e III.

55. Sobre os conceitos técnicos do sistema operacional Linux, é correto o descrito em qual alternativa?
a) existe apenas um programa Shell disponível para cada distribuição Linux;
b) o kernel é um programa responsável por controlar todos os aspectos operacionais do computador, porém não interage diretamente como hardware;
c) a Shell é um programa que provê a interface entre o usuário e o Kernel do Sistema Operacional;
d) os device drivers , por padrão, ficam residentes no diretório /var;

e) a Shell não analisa a sintaxe de um comando, apenas o executa.

56. Sobre os principais hardwares periféricos de armazenamento, avalie as afirmativas que se seguem.

I – Tanto os conectores IDE quanto os conectores SATA são destinados a conexão dos dispositivos de memória RAM.

II – O padrão IDE foi criado para substituir o antigo padrão SATA, aumentando, assim, significativamente a taxa de transferência dos discos rígidos.

III – No padrão IDE, a transmissão dos dados se dá de forma paralela, enquanto, no SATA, esta transmissão é serial.

Pode-se afirmar que:

a) apenas II e III estão corretas.
b) apenas III está correta.
c) apenas I e II estão corretas.
d) apenas I está correta.
e) I, II e III estão corretas.

ECA

Ricardo Torques

57. O Estatuto da Criança e do Adolescente estabelece algumas obrigações aos hospitais públicos e particulares em relação à saúde da gestante. Dentre as obrigações, consta a de:

a) manter alojamento separados, evitando a permanência do neonato com a mãe.

b) identificar o recém-nascido mediante o seu registro de nascimento.

c) manter registro das atividades desenvolvidas, através de prontuário individual, pelo prazo de dois anos.

d) fornecer declaração de nascimento onde constem necessariamente as intercorrências do parto e do desenvolvimento do neonato.

e) proceder a exames visando ao diagnóstico e terapêutica de anormalidades no metabolismo do recém-nascido, informando ao Ministério Público sobre eventual doença.

58. Alfredo é dono de uma banca de revistas à qual frequentam muitas crianças e pretende comercializar algumas revistas com conteúdo impróprio para crianças. Nesse caso, Alfredo:

a) não deve comercializar as revistas com conteúdo impróprio entre as 8 horas da manhã e as 8 horas da noite.

b) não poderá comercializar as revistas com conteúdo impróprio em nenhum caso a freguesia seja composta por mais de 50% de crianças.

c) poderá comercializar as revistas com conteúdo impróprio desde que elas estejam contidas em embalagem lacrada com advertência do seu conteúdo.

d) poderá comercializar as revistas com conteúdo impróprio desde que obtenha autorização específica do Conselho Tutelar competente.

e) poderá comercializar as revistas com conteúdo impróprio desde que elas sejam postas em local alto fora do alcance das crianças.

59. Paulo, de 17 anos, está cumprindo medida socioeducativa de internação. Sobre a situação de Paulo, assinale a alternativa correta:

a) Paulo deverá ser liberado compulsoriamente aos 18 anos.

b) Paulo deverá ser transferido para estabelecimento prisional aos 18 anos.

c) A medida socioeducativa será extinta automaticamente quando ele completar 18 anos.

d) Paulo tem direito ao cumprimento de internação domiciliar a partir dos 18 anos.

e) A medida socioeducativa não sofre nenhuma alteração jurídica pelo simples fato de Paulo completar 18 anos.

60. Sobre a convivência familiar das crianças e adolescentes, assinale a alternativa correta:

a) No caso de discordância entre os pais sobre o exercício do poder familiar, prevalece a vontade do pai mais idoso.

b) O apadrinhamento, cuja finalidade é a formação de vínculos familiares e comunitários externos à instituição pela criança ou adolescente em acolhimento institucional ou familiar, pode ser exercido por pessoas jurídicas.

c) A suspensão do poder familiar pode ser decretada pelo Conselho Tutelar pelo prazo máximo de 15 dias.

d) A condenação criminal do pai ou da mãe por crime culposo que cause dano ao filho pode ensejar a destituição do poder familiar.

e) A carência de recursos materiais da família é causa suficiente para a decretação da perda do poder familiar.

Estratégia Concursos

Prova Discursiva

Carlos Roberto

Vacinação obrigatória contra Covid-19 deve motivar disputas na Justiça, dizem especialistas

Juristas ouvidas pelo 'Estadão' afirmam que divergência entre governos federal e estaduais tende a ser levada ao STF, assim como ocorreu com outros temas relacionados à pandemia

SÃO PAULO - A obrigatoriedade da vacina contra a Covid-19 no Brasil pode ser mais um caso da pandemia levado à Justiça se as divergências entre governos federal e estaduais persistirem. Especialistas ouvidos pelo Estadão avaliam que, embora um imunizante ainda não esteja pronto, é provável que a discussão, ainda incerta, siga os mesmos caminhos tomados pelo debate acerca do isolamento social e quarentena no começo do ano, com o Supremo Tribunal Federal (STF) tendo de decidir sobre o assunto.

Mesmo sem ter certeza de quando uma vacina estaria disponível à população, a controvérsia é antecipada, de um lado, por declarações do presidente Jair Bolsonaro e representantes do Ministério da Saúde, contrários à imunização compulsória, e de outro, do governador de São Paulo, João Doria (PSDB), que se declara favorável. O dirigente estadual disse, ainda, que o governo poderá adotar "medidas legais se houver alguma contrariedade nesse sentido".

Disponível em: https://saude.estadao.com.br/noticias/geral,vacinacao-obrigatoria-contra-covid-19-deve-motivar-disputas-na-justica-dizem-especialistas,70003481385. Acesso em: 20 de outubro de 2020 [adaptado].

Estratégia Concursos

Considerando o texto acima como motivador, escreva um texto dissertativo com o seguinte tema: **obrigatoriedade da vacinação: entre a liberdade individual e a saúde pública**.

- contextualizar o tema;
- apresentar a polêmica em torno da obrigatoriedade da vacinação;
- ter entre 20 e 25 linhas.

FOLHA DE RESPOSTA

1	
2	
3	
4	
5	
6	
7	
8	
9	
10	
11	
12	
13	
14	
15	
16	
17	
18	
19	
20	
21	
22	
23	
24	
25	
26	
27	
28	
29	
30	

Estratégia Concursos

Preencha o Gabarito!

http://bit.ly/Simulado-PM-PR-24-10-20

Conheça nosso sistema de questões!

NÃO É ASSINANTE?

Confira nossos planos, tenha acesso a milhares de cursos e participe gratuitamente dos projetos exclusivos. Clique no link!

https://bit.ly/Estrategia-Assinaturas

CONHEÇA NOSSO SISTEMA DE QUESTÕES!

Estratégia Questões nasceu maior do que todos os concorrentes, com mais questões cadastradas e mais soluções por professores. Clique no link e conheça!

https://bit.ly/Sistemas-de-Questões