CESPE

SIMULADO

TJ PR

Técnico Judiciário

Estratégia
CONCURSOS

Simulado Especial

Simulado TJ PR – Técnico Judiciário

Nome: _____

INFORMAÇÕES SOBRE O SIMULADO EXCLUSIVO

1 – Este simulado conta com questões focadas no concurso do TJ PR;

*2 – A prova contém **60 itens** que abordam conhecimentos previstos no edital do concurso;*

3 – As questões são inéditas e foram elaboradas pelos nossos professores.

4 – Este PDF foi enviado por e-mail, disponibilizado na área do aluno e em um artigo publicado no blog do Estratégia Concursos;

*5 – Os participantes têm das **8h30 às 13h** para responder às questões e preencher o Gabarito Eletrônico;*

6 – O link para preencher o formulário com seu gabarito está localizado na última página deste PDF;

*7 – **A partir das 14h, os nossos professores iniciarão a Correção da Prova AO VIVO no canal do Estratégia Concursos no YouTube**. Eles resolverão todos os itens das questões. Aproveite para assisti-la AO VIVO e corrigir os erros pois o vídeo ficará disponível apenas na área do aluno.*

8 – O Gabarito do Simulado e o Ranking Classificatório com nota serão divulgados durante a transmissão da correção da prova.

PREENCHA SEU GABARITO NO LINK - http://bit.ly/Simulado-TJ-PR-Técnico-Judiciário-15-09

01 – Ⓐ Ⓑ Ⓒ Ⓓ Ⓔ	21 – Ⓐ Ⓑ Ⓒ Ⓓ Ⓔ	41 – Ⓐ Ⓑ Ⓒ Ⓓ Ⓔ
02 – Ⓐ Ⓑ Ⓒ Ⓓ Ⓔ	22 – Ⓐ Ⓑ Ⓒ Ⓓ Ⓔ	42 – Ⓐ Ⓑ Ⓒ Ⓓ Ⓔ
03 – Ⓐ Ⓑ Ⓒ Ⓓ Ⓔ	23 – Ⓐ Ⓑ Ⓒ Ⓓ Ⓔ	43 – Ⓐ Ⓑ Ⓒ Ⓓ Ⓔ
04 – Ⓐ Ⓑ Ⓒ Ⓓ Ⓔ	24 – Ⓐ Ⓑ Ⓒ Ⓓ Ⓔ	44 – Ⓐ Ⓑ Ⓒ Ⓓ Ⓔ
05 – Ⓐ Ⓑ Ⓒ Ⓓ Ⓔ	25 – Ⓐ Ⓑ Ⓒ Ⓓ Ⓔ	45 – Ⓐ Ⓑ Ⓒ Ⓓ Ⓔ
06 – Ⓐ Ⓑ Ⓒ Ⓓ Ⓔ	26 – Ⓐ Ⓑ Ⓒ Ⓓ Ⓔ	46 – Ⓐ Ⓑ Ⓒ Ⓓ Ⓔ
07 – Ⓐ Ⓑ Ⓒ Ⓓ Ⓔ	27 – Ⓐ Ⓑ Ⓒ Ⓓ Ⓔ	47 – Ⓐ Ⓑ Ⓒ Ⓓ Ⓔ
08 – Ⓐ Ⓑ Ⓒ Ⓓ Ⓔ	28 – Ⓐ Ⓑ Ⓒ Ⓓ Ⓔ	48 – Ⓐ Ⓑ Ⓒ Ⓓ Ⓔ
09 – Ⓐ Ⓑ Ⓒ Ⓓ Ⓔ	29 – Ⓐ Ⓑ Ⓒ Ⓓ Ⓔ	49 – Ⓐ Ⓑ Ⓒ Ⓓ Ⓔ
10 – Ⓐ Ⓑ Ⓒ Ⓓ Ⓔ	30 – Ⓐ Ⓑ Ⓒ Ⓓ Ⓔ	50 – Ⓐ Ⓑ Ⓒ Ⓓ Ⓔ
11 – Ⓐ Ⓑ Ⓒ Ⓓ Ⓔ	31 – Ⓐ Ⓑ Ⓒ Ⓓ Ⓔ	51 – Ⓐ Ⓑ Ⓒ Ⓓ Ⓔ
12 – Ⓐ Ⓑ Ⓒ Ⓓ Ⓔ	32 – Ⓐ Ⓑ Ⓒ Ⓓ Ⓔ	52 – Ⓐ Ⓑ Ⓒ Ⓓ Ⓔ
13 – Ⓐ Ⓑ Ⓒ Ⓓ Ⓔ	33 – Ⓐ Ⓑ Ⓒ Ⓓ Ⓔ	53 – Ⓐ Ⓑ Ⓒ Ⓓ Ⓔ
14 – Ⓐ Ⓑ Ⓒ Ⓓ Ⓔ	34 – Ⓐ Ⓑ Ⓒ Ⓓ Ⓔ	54 – Ⓐ Ⓑ Ⓒ Ⓓ Ⓔ
15 – Ⓐ Ⓑ Ⓒ Ⓓ Ⓔ	35 – Ⓐ Ⓑ Ⓒ Ⓓ Ⓔ	55 – Ⓐ Ⓑ Ⓒ Ⓓ Ⓔ
16 – Ⓐ Ⓑ Ⓒ Ⓓ Ⓔ	36 – Ⓐ Ⓑ Ⓒ Ⓓ Ⓔ	56 – Ⓐ Ⓑ Ⓒ Ⓓ Ⓔ
17 – Ⓐ Ⓑ Ⓒ Ⓓ Ⓔ	37 – Ⓐ Ⓑ Ⓒ Ⓓ Ⓔ	57 – Ⓐ Ⓑ Ⓒ Ⓓ Ⓔ
18 – Ⓐ Ⓑ Ⓒ Ⓓ Ⓔ	38 – Ⓐ Ⓑ Ⓒ Ⓓ Ⓔ	58 – Ⓐ Ⓑ Ⓒ Ⓓ Ⓔ
19 – Ⓐ Ⓑ Ⓒ Ⓓ Ⓔ	39 – Ⓐ Ⓑ Ⓒ Ⓓ Ⓔ	59 – Ⓐ Ⓑ Ⓒ Ⓓ Ⓔ
20 – Ⓐ Ⓑ Ⓒ Ⓓ Ⓔ	40 – Ⓐ Ⓑ Ⓒ Ⓓ Ⓔ	60 – Ⓐ Ⓑ Ⓒ Ⓓ Ⓔ

PORTUGUÊS

Texto I

Um dos estudantes levantou a mão. Embora compreendesse perfeitamente que não se podia permitir que pessoas de casta inferior desperdiçassem o tempo da Comunidade com livros e que havia sempre o perigo de lerem coisas que provocassem o indesejável descondicionamento de algum dos seus reflexos... enfim, ele não conseguia entender o referente às flores. Por que se dar ao trabalho de tornar psicologicamente impossível aos Deltas o amor às flores? [...]

– As flores do campo e as paisagens, advertiu, têm um grave defeito: são gratuitas. O amor à natureza não estimula a atividade de nenhuma fábrica. Decidiu-se que era preciso aboli-lo, pelo menos nas classes baixas; abolir o amor à natureza [...]

(HUXLEY, Aldous. Admirável Mundo Novo, p. 22, 1946.)

01. De acordo com o texto I,

a) os estudantes levantaram a mão porque manifestaram contra as pessoas de casta inferior estudarem.

b) um dos estudantes indagou ao professor a possibilidade de atendimento à preferência dos operários

c) um dos estudantes percebeu que os operários têm direito ao estudo e, por conseguinte, ao conhecimento.

d) a ideologia ali identificada coaduna com a ideia de quem estuda alcança melhores posições profissionais.

e) há uma visão de que quem tem poder usa de artifícios intransigentes para a

02. Infere-se do texto I que

a) conhecimento é poder.

b) poder é dinheiro.

c) democracia é prejuízo.

d) consumo é poder.

e) lucro é prestígio.

03. Traduz adequadamente o vocábulo "descondicionamento" como:

a) ação dependente de outra.

b) estar na dependência de uma obrigação.

c) supressão de uma reação associada a um estímulo.

d) fuga de uma realidade intelectual

e) prazer na ação profissional

04. Observa-se uma relação de causa e efeito no seguinte trecho:

a) "Um dos estudantes levantou a mão. Embora compreendesse perfeitamente que não se podia permitir que pessoas de casta inferior desperdiçassem o tempo da Comunidade com livros..."

b) "Embora compreendesse perfeitamente que não se podia permitir que pessoas de casta inferior desperdiçassem o tempo da Comunidade com livros e que havia sempre o perigo de lerem coisas que provocassem o indesejável descondicionamento de algum dos seus reflexos..."

c) "...enfim, ele não conseguia entender o referente às flores. Por que se dar ao trabalho de tornar psicologicamente impossível aos Deltas o amor às flores?"

d) "– As flores do campo e as paisagens, advertiu, têm um grave defeito: são gratuitas."

e) "O amor à natureza não estimula a atividade de nenhuma fábrica. Decidiu-se que era preciso aboli-lo, pelo menos nas classes baixas; abolir o amor à natureza [...]"

05. Quanto ao trecho do 1º parágrafo do texto I "Embora compreendesse perfeitamente que não se podia permitir que pessoas de casta inferior desperdiçassem o tempo da Comunidade com livros e que havia sempre o perigo de lerem coisas que provocassem o indesejável descondicionamento de algum dos seus reflexos...", há paralelismo sintático entre

a) "Embora compreendesse perfeitamente" e "que provocassem o indesejável descondicionamento de algum dos seus reflexos"

b) "Embora compreendesse perfeitamente" e "que não se podia permitir que pessoas de casta inferior desperdiçassem o tempo da Comunidade com livros"

c) "que pessoas de casta inferior desperdiçassem o tempo da Comunidade com livros" e "que havia sempre o perigo de lerem coisas"

d) "que não se podia permitir que pessoas de casta inferior desperdiçassem o tempo da Comunidade com livros" e "que havia sempre o perigo de lerem coisas que provocassem o indesejável descondicionamento de algum dos seus reflexos".

e) "que havia sempre o perigo de lerem coisas" e "que provocassem o indesejável descondicionamento de algum dos seus reflexos"

06. Marque a alternativa que apresenta paráfrase do trecho I:

Embora compreendesse perfeitamente que não se podia permitir que pessoas de casta inferior desperdiçassem o tempo da Comunidade com livros e que havia sempre o perigo de lerem coisas que provocassem o indesejável descondicionamento de algum dos seus reflexos...

a) Ainda que compreendia perfeitamente que não se podia permitir que pessoas de casta inferior desperdiçariam o tempo da Comunidade com livros e se havia sempre o perigo de lerem coisas que provocassem o indesejável descondicionamento de algum dos seus reflexos...

b) Contanto que compreendesse perfeitamente que não podia se permitir que pessoas de casta inferior desperdiçassem o tempo da Comunidade com livros e que havia sempre o perigo de lerem coisas os quais provocassem o indesejável descondicionamento de algum dos seus reflexos...

c) Malgrado compreendesse perfeitamente que não podia-se permitir que pessoas de casta inferior desperdiçariam o tempo da Comunidade com livros e que havia sempre o perigo de lerem coisas às quais provocassem o indesejável descondicionamento de algum dos seus reflexos...

d) Conquanto compreendesse perfeitamente que não se podia permitir que pessoas de casta inferior desperdiçassem o tempo da Comunidade com livros e que existia sempre o perigo de lerem coisas as quais provocassem o indesejável descondicionamento de algum dos seus reflexos...

e) Já que compreendia perfeitamente que não se podia permitir se pessoas de casta inferior desperdiçassem o tempo da Comunidade com livros e se havia sempre o perigo de lerem coisas que provocassem o indesejável descondicionamento de algum dos seus reflexos...

07. Marque a alternativa incorreta quanto aos aspectos linguísticos do segundo parágrafo do texto I:

a) A dupla vírgula que separa "advertiu" pode ser substituída por duplo travessão.

b) O sinal de dois-pontos é expressivo e pode ser substituído neste parágrafo por travessão.

c) O pronome "nenhuma" pode ser substituído por "alguma", desde que este se posicione imediatamente após o substantivo "fábrica".

d) A expressão "são gratuitas" é um segmento explicativo de expressão anterior.

e) A oração "que era preciso" está sendo empregada como complemento verbal de "Decidiu".

08. Marque a alternativa correta quantos aos elementos linguísticos do texto I

a) O artigo "a", na expressão "a mão", além de ser um determinante que particulariza do substantivo, transmite valor de posse.

b) O advérbio "perfeitamente", na expressão "Embora compreendesse perfeitamente", apresenta valor de intensidade.

c) O vocábulo "sempre", na expressão "havia sempre o perigo", é um advérbio que modifica um sintagma nominal.

d) O vocábulo "algum", na expressão "algum dos seus reflexos", é advérbio de indefinição.

e) Na expressão "ele não conseguia", o pronome apresenta valor catafórico.

Texto II



Tira de Laerte, em *Classificados*, Livro 3. São Paulo: Devir, 2004. p. 29. Seria essa formiga uma "intelectual orgânica" gramsciana?

09. Em comparação com o texto I, o texto II

a) ilustra a necessidade de profissionais mais bem preparados para o mercado de trabalho.

b) refuta a ideia de que deve haver uma divisão bem marcada entre quem tem poder e quem não tem.

c) critica o desmerecimento de determinados valores, em situações específicas.

d) ratifica a ideia de que os mais preparados intelectualmente são mais valorizados.

e) assevera que os poderosos permanecem ricos por serem intelectuais.

10. Quanto aos elementos linguísticos do texto II, os verbos "está" e "dispensa" transmitem, respectivamente,

a) estado característico e hipótese.

b) ação rotineira e possibilidade.

c) emoção e exortação.

d) estado característico e ordem.

e) hábito e solicitação.

11. Julgue as afirmações abaixo a respeito do texto II e marque a alternativa correta:

I – As reticências são empregadas para transmitir indecisão, hesitação do locutor.

II – O sinal de exclamação indica que há certa carga emocional na frase.

III – O adjetivo "operárias" funciona como adjunto adnominal e concorda com o núcleo "vagas".

a) Todas as afirmações estão corretas.

b) As afirmações I e II estão corretas.

c) As afirmações II e III estão corretas.

d) Somente a afirmação III está correta.

e) Somente a afirmação II está correta.

Texto III

Por que ética?

Por que ética? E o que é a ética? Não poderemos nos contentar com uma representação qualquer ou indeterminada. Da mesma forma, pressupondo uma pré-compreensão completamente indeterminada, desde o início podemos nos perguntar: por que afinal devemos nos ocupar com a ética? [...] Entre os jovens intelectuais, antigamente havia interesse mais pelas assim chamadas teorias críticas da sociedade. Ao contrário disto, na ética supõe-se uma reflexão sobre valores reduzida ao individual e ao inter-humano. E teme-se que aqui, contudo não seria possível encontrar nada de obrigatório, a não ser remontando-se a tradições cristãs ou de outras religiões. É o ético, ou então, ao contrário, as relações de poder, que são determinantes na vida social? E estas não determinam, por sua vez, as representações éticas de um tempo? E se isto é assim, ao se pretender lidar diretamente com a ética e não a partir de uma perspectiva de crítica da ideologia, não representaria isto um retorno a uma ingenuidade hoje insustentável?

(TUGENDHAT, Ernest. Lições sobre ética. Petrópolis: Vozes. 1996, p. 11-13. Adaptado.)

12. O texto III se estrutura por meio de

a) dialogismo, em que os dois interlocutores defendem ideias semelhantes.

b) exposição de um ponto de vista sob forma de perguntas.

c) digressão, pois o autor retoma perguntas do passado até o presente.

d) narrativa, pois o autor conta fatos com base nas respostas dadas a cada pergunta.

e) entrevista, em que há resposta a cada pergunta realizada ao longo do texto.

13. Corrige-se a pontuação do texto III por meio da

(Observação: Os vocábulos indicados nesta questão estão sublinhados no texto.)

a) inserção de uma vírgula após a palavra "contudo".

b) exclusão de vírgula após a expressão "se isto é assim".

c) exclusão da vírgula após a expressão "Ao contrário disto".

d) exclusão da dupla vírgula que separa a expressão "por sua vez".

e) troca do último ponto de interrogação por ponto final.

14. O futuro do pretérito do indicativo no trecho "não **representaria** isto um retorno a uma ingenuidade hoje insustentável?" (texto III) foi empregado para:

a) designar ação posterior a outra ação passada.

b) exprimir incerteza.

c) denotar desejo.

d) transmitir surpresa.

e) exprimir hipótese.

15. Em relação aos elementos linguísticos da frase "E se isto é assim, ao se pretender lidar diretamente com a ética e não a partir de uma perspectiva de crítica da ideologia, não representaria isto um retorno a uma ingenuidade hoje insustentável?", marque a alternativa correta.

a) A conjunção "e" relaciona os segmentos "se pretender lidar diretamente com a ética" e "não a partir de uma perspectiva de crítica da ideologia".

b) A vírgula após "ideologia" é facultativa.

c) O contexto permite a troca de posição da preposição "a" na expressão "não a partir de" para imediatamente antes do advérbio "não".

d) Mesmo com mudança de sentido, o vocábulo "uma" diante de "ingenuidade" pode ser excluído, desde que o vocábulo "a" receba acento grave.

e) O sinal indicativo de crase é facultativo na expressão "a partir de".

Texto IV

http://estagioblogcharge.blogspot.com

16. A determinação da professora ao aluno no texto IV ocorre numa correlação com a resposta a qual questionamento do texto III?

a) "Por que ética?"

b) E o que é a ética?

c) "por que afinal devemos nos ocupar com a ética?"

d) "se isto é assim, ao se pretender lidar diretamente com a ética e não a partir de uma perspectiva de crítica da ideologia, não representaria isto um retorno a uma ingenuidade hoje insustentável?"

e) "É o ético, ou então, ao contrário, as relações de poder, que são determinantes na vida social?"

17. Conforme o texto IV, a reação do aluno faz subentender que

a) certamente ele é o único que apresenta conduta repreensível na sala.

b) a professora apresentou conduta antiética.

c) os alunos apresentam conduta ética, com exceção de um.

d) há indignação por parte do aluno, com a reprimenda da professora.

e) os dados do texto são parcos para se inferir que o aluno tenha tido conduta antiética.

18. Quanto aos verbos do texto IV, é possível afirmar-se que

a) o primeiro verbo apresenta referente paciente.

b) o segundo verbo apresenta referente determinado.

c) os verbos apresentam referentes tomados de forma generalizante.

d) o segundo verbo refere-se a um agente indeterminado.

e) o primeiro verbo refere-se a um agente indeterminado.

19. Julgue as afirmações a seguir a respeito dos textos e marque a alternativa correta.

I – Os textos I e III são verbais.

II – O texto II é não-verbal.

III – O texto IV é misto.

a) Todas as afirmações estão corretas.

b) As afirmações I e III estão corretas.

c) As afirmações II e III estão corretas.

d) Somente a afirmação III está correta.

e) Somente a afirmação II está correta.

20. A palavra "professora", no texto IV, está separada por vírgula, porque:

a) há uma explicação.

b) há uma caracterização.

c) há uma complementação verbal.

d) há um chamamento.

e) há ênfase.

MATEMÁTICA E RACIOCÍNIO LÓGICO

21. O produto das raízes da equação $(\log_2 x)^2 = 8 + \log_2 x^2$ é:

a) -1

b) -8

c) 16

d) 4

e) $1/4$

22. Guilherme Neves recebeu uma herança de 200.000 reais e pretende aplicar todo esse dinheiro a uma taxa de juros compostos de 2% ao mês até que o seu capital seja triplicado. Considerando que $\log 3 \cong 0{,}48$ e $\log 1{,}02 \cong 0{,}008$, determine, em anos, o tempo que Guilherme deixará o seu capital aplicado para que seu objetivo seja atingido.

a) 5 anos

b) 6 anos

c) 8 anos

d) 12 anos

e) 16 anos

23. Um tanque possui 9 metros cúbicos de capacidade. Uma torneira enche esse tanque à razão de 40 litros por minuto e um ralo o esvazia à razão de 60 litros por minuto. Se o tanque estiver com dois terços da sua capacidade com água e abrirmos a torneira e o ralo, em quanto tempo o tanque estará vazio?

a) 2 horas e 30 minutos

b) 3 horas e 45 minutos

c) 5 horas

d) 6 horas

e) 7 horas e 30 minutos

24. O Estratégia celebrou 8 anos de atividades no último dia 09 de setembro. Um bolo de 8 andares foi encomendado para a festa.

Considere que:

- Os 8 andares do bolo são cilindros com alturas iguais a 15 centímetros.
- O raio do menor cilindro mede 8 centímetros.
- O raio do maior cilindro mede 22 centímetros.
- Os raios dos cilindros formam uma progressão aritmética.

Qual o volume total, em centímetros cúbicos, dos 3 andares superiores do bolo? Utilize a aproximação $\pi \cong 3$.

a) 924

b) 4.620

c) 9.720

d) 13.860

e) 40.500

25. Recentemente o Estratégia lançou um processo seletivo, chamado Estratégia Academy, para a contratação de professores para o novo projeto de cursos para vestibulares. Um dos critérios para ser aprovado no processo seletivo dizia que o professor precisa morar em São Paulo, pois o trabalho é presencial na sede do Estratégia. Um total de 6.000 professores se inscreveram no Estratégia Academy, mas, dos candidatos inscritos, apenas 5% foram pré-selecionados porque já moravam em São Paulo ou estavam dispostos a se mudar para atender o critério. Após uma série de etapas no Estratégia Academy, apenas 5% dos candidatos pré-selecionados foram aprovados e contratados para trabalharem no Estratégia Vestibulares. Em relação ao número inicial de candidatos, aqueles que foram contratados representam

a) 0,05%

b) 0,25%

c) 0,50%

d) 0,75%

e) 1,25%

26. Recentemente, os professores Brunno Lima, Décio Terror e Sérgio Mendes organizaram um aulão em Juiz de Fora.

Para a realização da aula, foram disponibilizadas para os alunos 96 cadeiras dispostas em fileiras, de modo que o número de cadeiras de uma fileira corresponde a 2/3 do número de fileiras. O número de cadeiras de uma fileira é

a) 14.

b) 12.

c) 10.

d) 8.

e) 6.

27. Uma camisa que custava R$ 80,00 passou a custar R$ 70,80 após um desconto no preço de X%. Em outra loja, essa mesma camiseta, que custava R$ 59,00, passou a custar R$ 70,80, após um reajuste no preço de Y %. O valor de X + Y é

a) 40,0

b) 35,8

c) 31,5

d) 29,7

e) 23,0

28. Muitos alunos pensam que precisam estudar 12 horas líquidas por dia para passar em um bom concurso.

A negação da proposição condicional "Se não estudo 12 horas líquidas por dia, então não passo no concurso do TJ-PR" é:

a) Se passo no concurso do TJ-PR, então estudo 12 horas líquidas por dia.

b) Se estudo 12 horas líquidas por dia, então passo no concurso do TJ-PR.

c) Estudo 12 horas líquidas por dia ou não passo no concurso do TJ-PR.

d) Não estudo 12 horas líquidas por dia e passo no concurso do TJ-PR.

e) Se passo no concurso do TJ-PR, então estudo 12 horas líquidas por dia.

29. O número de alunos matriculados em uma escola A está para o número de alunos matriculados em uma escola B assim como 4 está para 5 no ano de 2018. Se, naquele ano, o número de alunos matriculados na escola B superava em 420 o número de alunos matriculados na escola A, então, é correto afirmar que estavam matriculados na escola B, em 2018,

a) 1 890 alunos.

b) 1 680 alunos.

c) 1 995 alunos.

d) 2 100 alunos.

e) 1 785 alunos.

30. Três produtos, A, B e C, têm massas distintas. Sabe-se que a massa de A é o dobro da massa de B e que a massa de A supera a massa de C em 1,2 kg. Se a soma das massas dos três produtos é igual a 7,8 kg, então a massa de A é

a) 2,8, kg.

b) 3,6 kg.

c) 3,8 kg.

d) 3,4 kg.

e) 4,0 kg.

31. Guilherme observa um prédio e deseja medir a sua altura. Com o auxílio de um equipamento, mediu o ângulo entre a linha horizontal de seus olhos e o topo do prédio. Em seguida, ele desenhou um esquema para facilitar o raciocínio. Os olhos de Guilherme estão situados no ponto P da figura a seguir, de onde ele avista o topo do prédio.

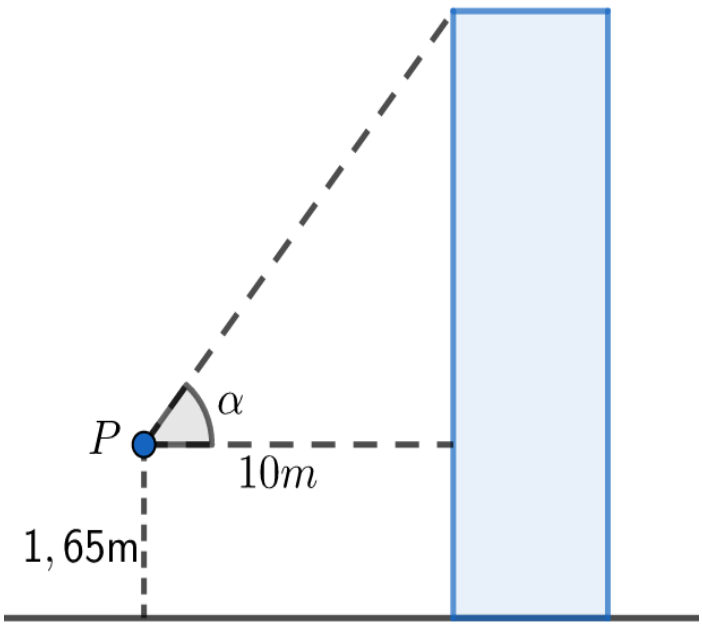

Considerando que $sen\ \alpha = \frac{2\sqrt{2}}{3}$, assinale a alternativa que apresenta a altura desse prédio em metros.

a) $11{,}65$

b) $20\sqrt{2} + 1{,}65$

c) $\frac{10}{3} + 1{,}65$

d) $\frac{20\sqrt{2}}{3} + 1{,}65$

e) $\frac{20\sqrt{2}+1{,}65}{3}$

32. Em um simulado realizado pelo Estratégia, dentre os candidatos que fizeram provas de matemática, português e inglês, 20 obtiveram nota mínima para aprovação nas três disciplinas. Além disso, sabe-se que:

I. 14 não obtiveram nota mínima em matemática;

II. 16 não obtiveram nota mínima em português;

III. 12 não obtiveram nota mínima em inglês;

IV. 5 não obtiveram nota mínima em matemática e em português;

V. 3 não obtiveram nota mínima em matemática e em inglês;

VI. 7 não obtiveram nota mínima em português e em inglês e

VII. 2 não obtiveram nota mínima em português, matemática e inglês.

A quantidade de candidatos que participaram do simulado foi

a) 44

b) 46

c) 47

d) 48

e) 49

33. O valor da série geométrica $(9 + 6 + 4 + \cdots)$ é igual a

a) 24

b) 27

c) 30

d) 33

e) 36

34. Guilherme Neves gosta de jogar Poker Texas Hold'em com seus amigos. Para deixar o jogo mais confortável, ele encomendou uma mesa com o formato de um hexágono regular conforme a figura a seguir.

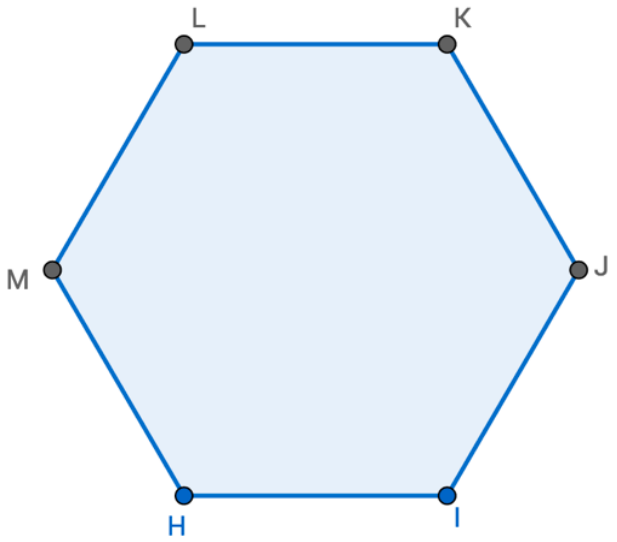

Sabendo que o segmento MJ mede 120 cm, então a área da superfície superior da mesa é, em centímetros quadrados, aproximadamente:

a) $900\sqrt{3}$

b) $1.800\sqrt{3}$

c) $3.600\sqrt{3}$

d) $5.400\sqrt{3}$

e) $6.000\sqrt{3}$

35. Uma herança total de R$ 4,9 milhões deverá ser dividida entre três irmãos Alberto, Brunno e Carlos. A divisão será feita de modo que Brunno deverá receber R$ 100 mil a menos que a oitava parte de Alberto, e Carlos deverá receber R$ 200 mil a mais que o quádruplo de Brunno. Das partes recebidas por Alberto, Brunno e Carlos, a maior parte deverá ser no valor de

a) R$ 2,8 milhões.

b) R$ 2,9 milhões.

c) R$ 3,0 milhões.

d) R$ 3,1 milhões.

e) R$ 3,2 milhões.

INFORMÁTICA

36. Com relação aos navegadores de internet, analise as afirmativas a seguir.

I. A Barra de Endereço é um caixa horizontal localizado na parte superior do navegador que permite inserir o endereço de sites que se deseja acessar.

II. Para imprimir o conteúdo de uma página de um site, utiliza-se o atalho de teclado Ctrl + I.

III. Cookies são pequenos arquivos de texto capazes de armazenar informações básicas sobre o visitante de um site na internet, tais como nome, idioma, estado de autenticação, registros de navegação, carrinho de compra, lista de produtos, entre outros.

Assinale:

a) se somente a afirmativa I estiver correta.

b) se somente a afirmativa III estiver correta.

c) se somente as afirmativas I e II estiverem corretas.

d) se somente as afirmativas I e III estiverem corretas.

e) se somente as afirmativas II e III estiverem corretas.

37. Acerca do Microsoft Excel, assinale a alternativa incorreta:

a) No Microsoft Excel 2016, as fórmulas começam com o sinal de igual (=).

b) O Microsoft Excel 2016, ao ser inicializado, apresenta ao usuário modelos de planilhas que facilitam o trabalho, como, por exemplo, planilhas de orçamentos e calendários.

c) A alça de preenchimento do Microsoft Excel pode ser utilizada para selecionar células com as quais se deseja realizar algum tipo de operação.

d) No Excel Microsoft 2016, as células, assim como as planilhas, podem receber nomes, que poderão ser referenciados durante a utilização.

e) Em uma planilha do Microsoft Excel 2016, ao se tentar inserir a fórmula =a3*(b3-c3) em uma célula, ocorrerá erro de digitação, uma vez que fórmulas devem ser digitadas com letras maiúsculas.

38. Acerca da segurança da informação, é correto afirmar:

a) Worms, assim como os vírus, são autorreplicáveis e necessitam ser executados pelos usuários para se propagarem e infectarem os computadores de uma rede.

b) Defacers são os pichadores virtuais especializados em desfigurar páginas de sites na Internet.

c) Para proteger um computador contra os efeitos de um worm, não é efetivo utilizar, como recurso, um firewall pessoal.

d) Os softwares de spyware têm como principal objetivo adquirir informações confidenciais de empresas e são usados como uma forma de espionagem empresarial.

e) Malwares são mecanismos utilizados para evitar que técnicas invasivas, como phishing e spams, sejam instaladas nas máquinas de usuários da Internet.

39. Sobre Computação em Nuvem, podemos afirmar que:

a) Nuvem Pública é aquela que pode ser acessada por qualquer pessoa gratuitamente.

b) Nuvem Comunitária é aquela que pode ser acessada por um grupo exclusivo e restrito de pessoas de uma organização.

c) Nuvem Privada é aquela que pode ser composta por duas ou mais infraestruturas de nuvem distintas, mas unidas por uma tecnologia padronizada ou proprietária.

d) Nuvem Híbrida é caracterizada fundamentalmente por permitir o armazenamento virtualizado de informações, tais como Google Drive, Dropbox, OneDrive, etc.

e) Entre os benefícios comuns a nuvens públicas e privadas incluem-se: alta eficiência, alta disponibilidade, elasticidade e rápida implementação.

40. Sobre segurança da informação, assinale a alternativa correta:

a) Autenticidade é um critério de segurança para a garantia do reconhecimento da identidade do usuário que recebe uma informação por meio de recursos computacionais.

b) A confiabilidade consiste na propriedade que limita o acesso à informação somente às pessoas ou entidades autorizadas pelo proprietário da informação.

c) A integridade é a capacidade de garantir que a informação manipulada está correta, fidedigna e que não foi corrompida.

d) A disponibilidade é a propriedade de uma informação estar disponível e utilizável sob demanda por qualquer pessoa que deseja acessá-la.

e) A irretratabilidade trata da capacidade de garantir que o receptor de uma mensagem não negue posteriormente a sua autoria.

ATUALIDADES

41. Acerca dos aspectos atuais da economia do Paraná, assinale a alternativa correta:

a) O Paraná apresenta uma forte indústria de transformação de produtos agrícolas, florestais e minerais, resultado de seu desenvolvimento econômico durante a história, o que faz com que a indústria seja o setor da economia que mais contribui para o Produto Interno Bruto (PIB) do Paraná.

b) O movimento da desconcentração industrial que se verificou de forma mais contundente no país na década de 90 prejudicou significativamente o setor industrial do Estado do Paraná, que perdeu muitas indústrias para as regiões Centro-Oeste e Nordeste devido à concessão de incentivos fiscais para a instalação de indústrias.

c) Devido ao conhecimento e as técnicas aplicadas à produção agrícola, o Paraná apresenta altos índices de produtividade no setor primário da economia. É o segundo maior produtor de grãos no país, atrás somente do Mato Grosso, e o maior produtor de trigo do país.

d) Apesar de existirem, relativamente, poucas jazidas de carvão no território brasileiro, o Paraná é o estado brasileiro que possui as maiores jazidas desse combustível fóssil, muito utilizado para a geração de energia nas termelétricas.

e) Em razão de sua extensa e densa rede hidrográfica, o Paraná apresenta a maior produção de energia hidrelétrica do país, uma fonte de energia que vai de encontro com os objetivos do Desenvolvimento Sustentável, por ser renovável e não causar impactos ambientais.

42. "O presidente do Supremo Tribunal Federal, Antonio Dias Toffoli, colocou um ponto final no impasse dos navios iranianos atracados na costa do país, próximos a Paranaguá, no Paraná. O ministro determinou nesta quinta-feira que a Petrobras abasteça as embarcações que estão paradas na costa brasileira sem combustível desde o dia 9 de junho. A petroleira havia se negado a fornecer o combustível aos dois navios"

Disponível em: https://tinyurl.com/y5a73evj. Acesso em 11/09/2019.

A recusa da Petrobras em fornecer combustível aos navios iranianos está relacionada à (ao) fato de(o):

a) O descumprimento do Irã com o Pacto Global de Refugiados, não tendo acolhido refugiados de regiões próximas que sofreram com atentados terroristas do Estado Islâmico e outros grupos extremistas.

b) O presidente iraniano, Hassan Rohani, não ter comparecido à uma reunião que estava marcada com o presidente brasileiro Jair Bolsonaro durante o encontro do G20, sob a alegação de que a transferência da embaixada brasileira de Tel Aviv para Jerusalém, em Israel, é uma ameaça aos muçulmanos.

c) O Irã ter diminuído significativamente as suas importações brasileiras em decorrência da aproximação diplomática do Brasil com os Estados Unidos.

d) O Irã estar em uma lista de sanções dos Estados Unidos, aplicadas após a saída dos EUA do Acordo Nuclear sobre o programa nuclear iraniano.

e) Um pedido do Conselho de Segurança da ONU para que os países não vendam petróleo ao Irã, pois o país não permite que inspetores da Agência Internacional de Energia Atômica (AIEA) realizem inspeções em suas instalações.

43. "Grandes deslocamentos populacionais são conhecidos desde a Antiguidade. Grupos humanos deixam seu lugar de origem em busca de melhorias em suas condições de vida, muitas vezes fugindo de calamidades naturais (como secas e invernos rigorosos e prolongados) ou mesmo de perseguições políticas e religiosas."

Fonte: OLIC, Nelson Bacic. Vereda Digital – Geografia - Nelson Bacic Olic, Angela Côrrea da Silva, Ruy Lozano. 1° ed. São Paulo: Moderna, 2012.

Acerca dos movimentos migratórios na atualidade, assinale a alternativa correta:

a) Os refugiados e imigrantes forçados dependem da boa vontade dos estados nacionais para ajudarem-nos em sua jornada, já que não possuem nenhuma representação externa e nem de seus países de origem.

b) A globalização apresenta um movimento contraditório na medida que, ao mesmo tempo em que pressupõe a facilitação da circulação de pessoas entre países, dificulta os fluxos migratórios com um maior controle de fronteiras, verificado sobretudo nos países ricos e desenvolvidos em relação aos países pobres.

c) Com o eminente fim da guerra civil na Síria, diminuíram consideravelmente os fluxos migratórios para a Europa e cessaram-se as manifestações de xenofobia no continente europeu.

d) A decisão de separação do Reino Unido da União Europeia, no processo chamado de Brexit, foi, em grande parte, motivada pelas duras imposições da União Europeia para que o país aceitasse a entrada de refugiados em seu território, sem ter o devido direito de negociação.

e) A chamada política de "tolerância zero" do presidente norte-americano Donald Trump para com os imigrantes ilegais se consolidou com a assinatura do decreto que prevê a construção de uma barreira física na fronteira dos Estados Unidos com o México, que aguarda aprovação do Congresso norte-americano.

44. O Custo Brasil é um conceito que designa o conjunto de dificuldades de ordem econômica, burocrática, de infraestrutura e logísticas que encarecem os produtos brasileiros no mercado internacional, prejudicando as exportações e, assim, a economia do país. A respeito da matriz brasileira de transportes, assinale a alternativa correta:

a) Apresentando amplo predomínio do transporte rodoviário, a matriz de transportes brasileira ainda é muito precária, semelhante à dos países da África subsaariana.

b) Por mais que apresente sérios problemas estruturais, poder-se-iam resolver os problemas da matriz de transportes brasileira com a concessão de subsídios governamentais para os transportadores, a exemplo do que os países desenvolvidos fazem.

c) As características físicas brasileiras, como a sua grande extensão e o relevo com muitos desníveis impedem que se instale uma boa infraestrutura de transportes baseada na intermodalidade.

d) A opção pelo transporte rodoviário em detrimento do transporte ferroviário no Brasil se justifica pelo fato do transporte ferroviário gerar uma maior demanda de combustível em relação ao transporte rodoviário, tornando-se, assim, mais poluente.

e) Todo modal de transporte possui as suas vantagens e desvantagens, o que significa que devem ser conciliados visando ao desenvolvimento econômico. O transporte rodoviário, por exemplo, é o mais indicado para interligar pontos próximos e cargas urgentes, mas não muito volumosas.

45. O presidente Jair Bolsonaro e o presidente da França, Emmanuel Macron, tiveram um encontro de 20 minutos em Osaka, no Japão, durante o G20. Bolsonaro sinalizou a Macron que o Brasil vai continuar no Acordo do Clima de Paris e disse esperar o apoio da França para o acordo de livre comércio da União Europeia com o Mercosul."

"Continuamos comprometidos com a plena implementação do Acordo de Paris, adotado sob os princípios da Convenção-Quadro das Nações Unidas sobre a mudança climática (UNFCCC), inclusive os princípios das responsabilidades comuns porém diferenciadas e respectivas capacidades, à luz de diferentes circunstâncias nacionais", diz o texto.

Disponível em: https://tinyurl.com/y3wehafa. Acesso em 11/09/2019.

O Acordo de Paris foi assinado em dezembro de 2015, com o objetivo de propor medidas para conter o aquecimento global. A respeito desse tema e de seus múltiplos aspectos relacionados, analise as afirmativas:

I - Considerando as emissões anuais, tendo como base os últimos anos, a China é o maior emissor mundial de CO2, seguida dos Estados Unidos.

II - A principal consequência da mudança climática é de ordem econômica, uma vez que, para que se mantenha inalterado o clima do planeta, basta diminuir a utilização de recursos naturais, o que representa um entrave ao crescimento econômico em escala global.

III - O presidente dos Estados Unidos, Donald Trump, é um cético a respeito do aquecimento global, e anunciou a retirada dos Estados Unidos do Acordo de Paris, que, na época de sua assinatura, foi aprovado por Barack Obama.

IV - As atividades agropecuárias são as que mais emitem os gases responsáveis pelo aquecimento global na atmosfera da Terra, seguido da indústria e dos resíduos sólidos.

V - Ainda não há certeza entre os cientistas sobre quais são as causas do aquecimento global. O que se descobriu até agora, em pesquisa experimentais, é que a queima de combustíveis fósseis tem elevado a temperatura da Terra.

Estão corretas:

a) I e III.

b) II, V, e V.

c) I, III e V.

d) III e V.

e) I, II e III.

CONSTITUIÇÃO FEDERAL E ESTADO

46. Segundo o que preleciona a Constituição Estadual do Paraná, é correto afirmar que:

a) A exploração do serviço de gás canalizado pelo Estado, mediante permissão, poderá ser precedida de licitação.

b) A alienação de bens imóveis para entidades da administração indireta do Estado do Paraná dispensa a necessidade de licitação.

c) O controle externo dos municípios localizados do Estado do Paraná será exercido pela Câmara Municipal, com o auxílio do respectivo Tribunal de Contas Municipal.

d) A Constituição Federal e a do Estado do Paraná trazem a razoabilidade como importante princípio implícito.

e) No Estado do Paraná, a contratação por tempo determinado deverá ter caráter excepcional e obedecer ao limite máximo de dois anos.

47. No que diz respeito ao Poder Judiciário, está de acordo com o que determina a Constituição Federal e a do Estado do Paraná o que se afirma em:

a) O Tribunal de Justiça detém plena autonomia para alterar a organização judiciária no território sob sua jurisdição.

b) Os Tribunais do Júri e os Juizados Especiais foram elencados no texto da Constituição estadual como órgãos do Poder Judiciário do Paraná.

c) Cabe ao Tribunal de Justiça processar e julgar os deputados estaduais nos crimes comuns e, nos de responsabilidade, o julgamento caberá à Assembleia Legislativa.

d) As Ações Diretas de Inconstitucionalidade de leis municipais frente à Constituição Estadual deverão ser propostas perante o STF.

e) Cabe ao Tribunal de Justiça encaminhar a proposta orçamentária do Poder Judiciário do Estado à Assembleia Legislativa, dada sua autonomia administrativa, financeira e orçamentária.

ESTATUTO DA CRIANÇA E DO ADOLESCENTE

48. De acordo com o Estatuto da Criança e do Adolescente, assinale a assertiva correta.

a) Proíbe-se o tratamento cruel ou degradante e recomenda-se a razoabilidade e proporcionalidade por parte de pais e responsáveis em relação ao uso do castigo físico como medida de correção disciplinar.

b) Quando a criança praticar ato infracional a ela aplicada medida de proteção e não medidas socioeducativas.

c) Na adoção, o adotante deverá ser pelo menos 18 anos mais velho que o adotando.

d) É dever do Estado assegurar atendimento em creche e pré-escola às crianças até seis anos de idade.

e) Considera-se castigo a conduta de natureza disciplinar com uso da força física contra criança ou adolescente lhe resulte lesão.

DIREITO PROCESSUAL CIVIL

49. Acerca dos atos processuais, assinale a alternativa correta.

a) Os atos processuais eletrônicos podem ser praticados em qualquer horário desde que até às 20:00 do último dia do prazo.

b) Durante as férias forenses, não se realização os atos de citação e de intimação.

c) Quando não haja previsão legal nem judicial, as intimações obrigarão o comparecimento em 24 horas.

d) Na contagem do prazo, inclui-se o dia do começo e exclui-se o último do prazo.

e) Desde que o faça expressamente, a parte poderá renunciar ao prazo estabelecido exclusivamente em seu favor.

50. O Juizado Especial Cível tem competência para a conciliação, processo e julgamento das causas cíveis de menor complexidade, assim consideradas as causas cujo valor não exceda a

a) 60 vezes o salário mínimo.

b) 5 vezes o salário mínimo.

c) 40 vezes o salário mínimo.

d) 20 vezes o salário mínimo.

e) 10 vezes o salário mínimo.

DIREITO PROCESSUAL PENAL

51. José foi investigado em inquérito policial pela prática do crime de roubo majorado pelo emprego de arma de fogo. Após as investigações, a autoridade policial conclui não haver indícios de autoria e, portanto, não indicia José. O Ministério Público, então, requer o arquivamento do inquérito policial pela ausência de base para a denúncia. O Juiz acolhe o pedido do MP e determina o arquivamento do inquérito policial. Neste caso:

a) a própria autoridade policial poderia ter realizado o arquivamento do inquérito policial.

b) será possível a retomada futura das investigações, desde que haja notícia da existência de prova nova.

c) será possível a retomada futura das investigações, ainda que não haja notícia da existência de prova nova.

d) não será possível a retomada futura das investigações, ainda que haja notícia da existência de prova nova.

e) a decisão de arquivamento do inquérito sempre faz coisa julgada material, sendo incabível a retomada futura das investigações, independentemente do motivo do arquivamento.

52. Com relação à renúncia, ao perdão do ofendido e à perempção, assinale a alternativa correta:

a) a renúncia é ato unilateral, não dependendo de aceitação, mas a renúncia em favor de um dos infratores a todos se estenderá, pelo princípio da indivisibilidade.

b) a renúncia, o perdão do ofendido e a perempção são institutos que só cabem na ação penal privada exclusiva e na subsidiária da pública.

c) O perdão concedido a um dos querelados aproveitará a todos, inclusive àquele que o recusar, pelo princípio da indivisibilidade.

d) Haverá perempção quando o querelante deixar de promover o andamento do processo durante 15 dias seguidos.

e) A renúncia e o perdão somente podem ser expressos, não se admitindo renúncia ou perdão tácitos.

ESTATUTO DOS SERVIDORES

53. Com relação às disposições do Estatuto dos Servidores Civis do Poder Judiciário do Estado do Paraná, assinale a opção correta.

a) A avaliação psicológica é etapa obrigatória para aquisição da estabilidade.

b) É de 30 dias o prazo para o servidor entrar em exercício, contados da data da posse, prorrogável por mais 30 dias a requerimento do interessado.

c) Reintegração é o reingresso no serviço Público do funcionário aposentado, quando insubsistentes os motivos da aposentadoria ou a pedido do servidor, no interesse da administração.

d) O direito de petição prescreverá em 03 anos a contar dos atos que afetem interesse patrimonial e créditos resultantes das relações com a administração do Poder Judiciário.

e) A advertência será aplicada verbalmente em caso de mera negligência.

CÓDIGO DE ORGANIZAÇÃO JUDICIÁRIA

54. Com relação ao Código de Organização do Estado do Paraná, assinale a opção correta.

a) O Tribunal de Justiça é composto por 145 Desembargadores, além do Presidente, 1º e 2º Vice-presidentes, Corregedor-Geral e Corregedor da Justiça.

b) A substituição eventual do Juiz Diretor do Fórum será exercida pelo Juiz de Direito Titular mais antigo na comarca ou foro, designado pelo Órgão Especial.

c) Juiz de direito que integra as Câmaras tem mandato de dois anos, sendo vedada a recondução.

d) O Tribunal de Justiça é dirigido pelo Presidente, pelos Vice-Presidentes, Corregedor-Geral da Justiça e Corregedor de Justiça e Desembargadores.

e) Havendo vacância dos cargos de 2º Vice-Presidente e Corregedor da Justiça, no prazo igual ou inferior a seis meses do término do mandato, haverá eleição para completá-lo.

55. Com relação ao Código de Organização do Estado do Paraná, são órgãos do Poder Judiciário, exceto

a) Tribunal de Justiça

b) Tribunais do Júri

c) Juízes de Paz

d) Tribunal Pleno

e) Juízes de Direito

REGIMENTO INTERNO

56. Acerca do disposto no Regimento Interno do Tribunal de Justiça do Estado do Paraná, assinale a opção incorreta.

a) O Tribunal Pleno é composto pela totalidade de Desembargadores.

b) O Órgão Especial é constituído por 25 Desembargadores, respeitada a proporcionalidade do quinto constitucional.

c) A Corregedoria-Geral da Justiça é um órgão com abrangência por todo o território do Estado, dirigida pelo Corregedor-Geral da Justiça, eleito dentre Juízes de Direito para mandato de 2 anos e tem como seu principal objetivo, a correição e fiscalização de Comarcas, em seus foros judiciais e extrajudiciais.

d) O Órgão Especial reunir-se-á com a presença de pelo menos 13 Desembargadores, salvo eventual exame de recusa na promoção na promoção de juiz de direto pelo critério de antiguidade, que terá quórum de 2/3 de seus membros.

e) O Órgão Especial reunir-se-á à primeira e terceira segunda-feira do mês em sessão contenciosa

57. Acerca Regimento Interno do TJ-PR, assinale a opção correta.

a) Considerar-se-á eleito Presidente o Desembargador que, no respectivo escrutínio, obtiver dois terços dos votos dos membros do Tribunal

b) Anualmente, o Corregedor-Geral da Justiça realizará Correição, Ordinária ou Extraordinária, Presencial ou remota, denominada Virtual, em pelo menos 34% (trinta e quatro por cento) das Unidades Jurisdicionais.

c) Presente a maioria dos membros do Tribunal Pleno, a eleição e a apuração serão realizadas, em sessão pública, para cada um dos cargos, observada a seguinte ordem: Presidente, 1° Vice-Presidente, 2° Vice-Presidente, Corregedor-Geral da Justiça, Corregedor, Ouvidor-Geral e Ouvidor.

d) no julgamento de feitos de natureza criminal, da competência do Órgão Especial, no caso de empate, o Presidente, ou seu substituto, proferirá voto de desempate

e) A Ouvidora-geral é um órgão jurisdicional com função de servir de canal de comunicação direta entre o cidadão, órgãos públicos e privados e o Poder Judiciário do Estado do Paraná, com vistas a orientar e transmitir informações, promover ações que visem à melhoria contínua do atendimento às demandas, colaborar na tomada de decisão destinada a simplificar e modernizar os processos de entrega da Justiça, bem como elevar os padrões de transparência, presteza e segurança das atividades desenvolvidas pelo Poder Judiciário.

CÓDIGO DE NORMAS DA CORREGEDORIA

58. De acordo com o Código de Normas da Corregedoria Geral da Justiça, assinale a opção correta.

a) A Inspeção Ordinária consiste na fiscalização normal, periódica e previamente anunciada, presencial ou virtual, geral ou parcial, nas Unidades Judiciárias e nos Ofícios Extrajudiciais.

b) A Correição Especial consiste na fiscalização excepcional, realizável a qualquer momento, podendo ser presencial ou virtual, geral ou parcial, devendo ser realizada, ainda que em segredo de justiça, sempre com a presença do agente submetido à Correição.

c) Provimento é ato de natureza geral destinado a aplicar, em casos concretos, os dispositivos legais atinentes à atividade funcional de Magistrados, Serventuários e funcionários da Justiça.

d) A função correcional será exercida por meio de Correições Ordinárias ou Extraordinárias, presenciais ou virtuais, gerais ou parciais, nas Unidades Judiciárias e nos Ofícios Extrajudiciais, determinadas pelo Corregedor-Geral da Justiça ou pelo Corregedor da Justiça, com a expedição da respectiva Ordem de Serviço.

e) Para atender às peculiaridades locais, o Juiz Titular da Unidade Judiciária poderá baixar normas complementares, mediante Ordem de Serviço.

59. De acordo com o Código de Normas da Corregedoria Geral da Justiça, assinale a opção correta.

a) As consultas aos movimentos e às decisões judiciais serão acessíveis apenas ao Ministério Público, Procuradores constituídos e aos que forem partes no processo.

b) Os atos serão redigidos em vernáculo, sem abreviaturas, excetuando-se as formas consagradas pelo Vocabulário Ortográfico da Língua Portuguesa da Academia Brasileira de Letras, as adotadas por órgãos oficiais e as convencionadas por determinada área do conhecimento humano;

c) Em atenção ao princípio constitucional da publicidade, todos atos são públicos e devem ser publicados no Diário da Justiça Eletrônico

d) Quando a petição for enviada para atender prazo processual, considerar-se-á tempestiva aquela transmitida até às 18 horas do seu último dia.

e) Terão atendimento prioritário as pessoas com deficiência, as pessoas com idade igual ou superior a 60 anos e as gestantes, mediante garantia de lugar privilegiado em filas, distribuição de senhas com numeração adequada ao atendimento preferencial e alocação de espaço para atendimento exclusivo no balcão, ou implantação de outro serviço de atendimento personalizado.

DIREITO DAS PESSOAS COM DEFICIÊNCIA

60. De acordo com a Lei 13.146/15, as barreiras existentes nas vias e nos espaços públicos e privados abertos ao público ou de uso coletivo são denominadas de

a) barreiras urbanísticas.

b) barreiras arquitetônicas.

c) barreiras nos transportes.

d) barreiras nas comunicações.

e) barreiras atitudinais.

QUESTÃO DISCURSIVA

ASSÉDIO VIRTUAL - 'CYBERBULLYING É QUESTÃO DE SAÚDE PÚBLICA'

"Brincadeiras" ofensivas foram por muito tempo ignoradas por pais e responsáveis por crianças e adolescentes. Nos últimos anos, no entanto, o bullying passou a ser encarado de forma mais séria e hoje é considerado um problema real e frequente em todo o mundo. No entanto, com as novas plataformas de comunicação, a juventude passou a conviver com as agressões também no ambiente virtual. Tanto que o cyberbullying tornou-se problema de saúde pública e que pode trazer consequências graves para as vítimas.

Ansiedade, depressão e suicídio são alguns dos resultados da violência praticada entre crianças e adolescentes no ambiente virtual. Os sintomas nem sempre são percebidos pelos responsáveis, o que torna a agressão ainda mais perigosa. Falta de políticas públicas de combate ao problema e a ausência de debate nas escolas e na sociedade são agravantes.

Segundo a última pesquisa TIC Kids, de 2016, realizada pelo CGI.br (Comitê Gestor da Internet no Brasil), mais de 80% da população brasileira entre 9 e 17 anos utilizam a rede. O número de jovens que navegam na rede mais de uma vez por dia foi de 21% em 2014 para 69% em 2016.

Disponível em: < https://www.nic.br/noticia/na-midia/assedio-virtual-cyberbullying-e-questao-de-saude-publica/>. Acesso em: 11 set. 2019.

MODELO DE MG COMETE SUICÍDIO APÓS VÍDEO DE SEXO VAZAR NA WEB

Uma notícia chocou o Brasil nesta quarta-feira, quando a Polícia Civil de Goiás divulgou que uma modelo de Minas Gerais pode ter cometido suicídio após o vazamento de um vídeo.

De acordo com O Tempo, Milena Chaves Andrade, 20, natural da cidade de Sete Lagoas, foi encontrada morta nesta segunda-feira, 27.

A moça foi encontrada por seu personal trainer que foi em seu apartamento à pedido de sua família, que não conseguia contato com ela há dias.

Milena foi encontrada dentro do banheiro enforcada com o cabo de sua chapinha e segundo as suspeitas, ela teria cometido suicídio após um vídeo em momento íntimo ter caído na web.

O vídeo teria viralizado entre seus colegas de trabalho e lhe causado depressão. Se a teoria for confirmada o autor do vazamento poderá pegar até cinco anos de prisão.

Disponível em: < http://moonbh.com.br/modelo-de-mg-comete-suicidio-apos-video-de-sexo-vazar-na-web-veja/>. Acesso em: 11 set. 2019.

CYBERBULLYING: A VIOLÊNCIA VIRTUAL

Todo mundo que convive com crianças e jovens sabe como eles são capazes de praticar pequenas e grandes perversões. Debocham uns dos outros, criam os apelidos mais estranhos, reparam nas mínimas "imperfeições" - e não perdoam nada. Na escola, isso é bastante comum. Implicância, discriminação e agressões verbais e físicas são muito mais frequentes do que o desejado. Esse comportamento não é novo, mas a maneira como pesquisadores, médicos e professores o encaram vem mudando.

Há cerca de 15 anos, essas provocações passaram a ser vistas como uma forma de violência e ganharam nome: bullying (palavra do inglês que pode ser traduzida como "intimidar" ou "amedrontar"). Sua principal característica é que a agressão (física, moral ou material) é sempre intencional e repetida várias vezes sem uma motivação específica. Mais recentemente, a tecnologia deu nova cara ao problema. E-mails ameaçadores, mensagens negativas em sites de relacionamento e torpedos com fotos e textos constrangedores para a vítima foram batizados de cyberbullying. Aqui, no Brasil, vem aumentando rapidamente o número de casos de violência desse tipo.

Disponível em: <https://novaescola.org.br/conteudo/1530/cyberbullying-a-violencia-virtual>. Acesso em: 11 set. 2019.

A partir da leitura dos textos de motivadores, redija um texto dissertativo sobre o tema:

CIBERBULLYING: A VIOLÊNCIA PRATICADA NA INTERNET

Ao elaborar seu texto, aborde os seguintes aspectos:

1 causas do problema;

2 consequências sofridas pelas vítimas desse ato;

3 providências a serem tomadas para o combate desse tipo de violência.

Obs.: disponibilizamos um serviço de correção especificamente para este simulado, em conformidade com os critérios utilizados pela banca Cebraspe (Cespe).

Link para correção da sua discursiva:
https://www.estrategiaconcursos.com.br/cursosPorConcurso/discursivas-para-concursos/

FOLHA DE RESPOSTA

1	
2	
3	
4	
5	
6	
7	
8	
9	
10	
11	
12	
13	
14	
15	
16	
17	
18	
19	
20	
21	
22	
23	
24	
25	
26	
27	
28	
29	
30	

Preencha o Gabarito!

http://bit.ly/Simulado-TJ-PR-Técnico-Judiciário-15-09

Não é assinante?

Confira nossos planos, tenha acesso a milhares de cursos e participe gratuitamente dos projetos exclusivos. Clique no banner!